EVALUACIÓN TERCERA UNIDAD
ÁREA MATEMÁTICA

I.E.P. Claret Arequipa

ESTUDIANTE:.....
GRADO: PRIMERO SECCIÓN: AMARILLO
PROF: Eugenia Mendoza Flores Fecha: 19/06/2020

1. Observa los siguientes conjuntos. Luego arrastra los símbolos de pertenencia y no pertenencia, inclusión y no inclusión de conjuntos según corresponda.



2. Observa la imagen arrastra los cuantificadores según corresponda

a. ..... son niños.

b. .....niños usan gorro.

c. Hay..... pelota.

d. ..... es niña.

Algunos **Todos** **Ninguna** **una**

3. Observa la imagen, son los dulces que recibió Manuel en una fiesta. Marca con ✓ las afirmaciones correctas.

☐ Hay tantos como

☐ Hay más que

☐ Hay tantos como

☐ Hay menos que

4. Estas son las regletas que tiene José y desea saber que número le corresponde a cada una de ellas. Ayúdalo escribiendo su respectivo numero

☐

☐

☐

☐



☐

☐

☐

☐

5. El delfín está en el casillero 7 debe regresar al casillero 2 ¿Cuantos saltos da? Escribe tu respuesta en las líneas punteadas.

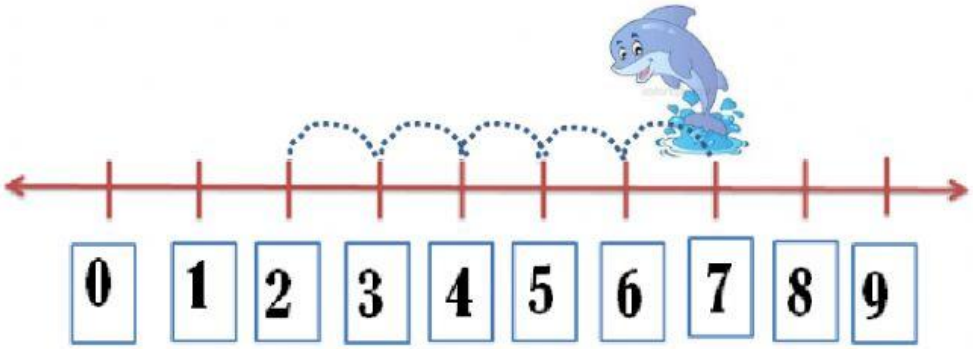

Respuesta: El delfín dio : ..... saltos.

6. **Ordena los globos en forma ascendente, arrastrando.**



7. **Observa las fichas de dominó de Pedro. Luego ordénalos de mayor a menor arrastrando las fichas en el recuadro rojo.**

8. **Observa la posición del cocodrilo y escribe el número antecesor y sucesor y los números anteriores y posteriores separando con guiones.**

Antecesor: .....

Sucesor: .....

Números anteriores: .....

Números posteriores: .....

9. **Tenemos los siguientes números debes de arrastrar los símbolos > < = según corresponda.**



Profesora: Eugenia Mendoza Flores