RISOLVI I PROBLEMI SCRIVENDO L'OPERAZIONE GIUSTA.

DINO HA RACCOLTO 2 FIORI ROSA E 4 FIORI AZZURRI.

QUANTI FIORI HA RACCOLTO IN TUTTO?

OPERAZIONE: _____

DINO AVEVA COMPRATO 13 PERE MA GINO NE HA MANGIATE 4.

QUANTE PERE SONO RIMASTE A DINO?

OPERAZIONE: _____



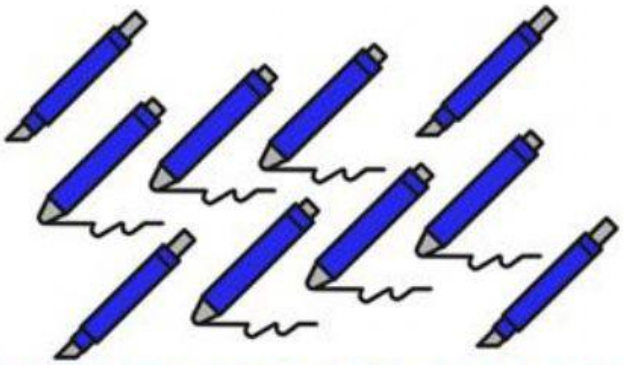

DINO HA 10 PENNE BLU. 4 NON SCRIVONO PIU'.

QUANTE PENNE SCRIVONO ANCORA?

OPERAZIONE: _____

DINO HA 6 CAPPELLI ARANCIONI E GINO HA 4 CAPPELLI CELESTI.

QUANTI CAPPELLI HANNO IN TUTTO?

OPERAZIONE: _____