D 观察以下植物在一个星期后的生长情况，并写出正确的答案。巩固

1



植物需要 _____ 才能生长。

2



植物需要 _____ 才能生长。

3



植物需要 _____ 才能生长。

4




_____ 能让植物更茁壮生长。