LOS POLÍGONOS

1. Relaciona cada polígono con su nombre según su número de lados.

TRIÁNGULO | CUADRILÁTERO | PENTÁGONO | HEXÁGONO

2. Completa la siguiente tabla con lo que falta.

POLÍGONO	Nº DE LADOS	Nº DE VÉRTICES
Tríangulo		
	6	
		4
	5	

3. Relaciona cada triángulo con su nombre según la longitud de sus lados.

EQUILÁTERO | ISÓSCELES | ESCALENO

LOS POLÍGONOS

4. Lleva el nombre de cada cuadrilátero junto a su figura correcta. Después selecciona los cuadrilateros que son paralelogramos pinchando sobre los polígonos.

CUADRADO

RECTÁNGULO

ROMBOIDE

TRAPECIO

ROMBO

TRAPEZOIDE



CUERPOS GEOMÉTRICOS

1. Selecciona los poliedros.



2. Relaciona cada poliedro con su nombre correcto.

PRISMA

PIRÁMIDE

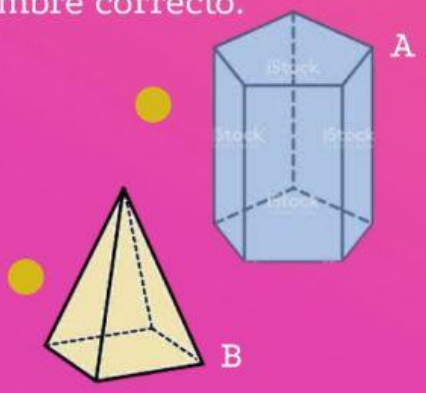

3. Analiza los poliedros del ejercicio anterior. Escribe en mayúsculas.

LETRA	NOMBRE	Nº VÉRTICES	Nº ARISTAS	Nº CARAS	CARAS + VÉRTICES - ARISTAS
A					
B					

4. Escribe debajo de cada cuerpo redondo su nombre. Escribe en mayúsculas.