TEST: CCNN TEMA 3 Y 4

Relaciona cada parte del cuerpo con su función.

Aparato excretor	Se encarga de transformar los alimentos en nutrientes
Aparato reproductor	Captan la información del entorno
Aparato locomotor	Lleva a cabo las respuestas del organismo, junto con las glándulas
Aparato digestivo	Expulsa del cuerpo las sustancias de desecho
Aparato circulatorio	Produce los espermatozoides y los óvulos
Órganos de los sentidos	Transporta las sustancias por todo el cuerpo mediante la sangre

Observa los alimentos y clasifícalos donde corresponda.

GALLETAS MELOCOTÓN YOGUR PESCADO LENTEJAS ACELGAS ACEITE

Energéticos ricos en hidratos de carbono	Energéticos ricos en lípidos	Constructivos	Reguladores

Completa la siguiente tabla.

Órgano	Aparato	Función
Faringe		
Alvéolos		
		Digestión parcial del alimento mediante los jugos gástricos.
Fosas nasales		
Intestino grueso		
		Músculo que separa el tórax y el abdomen, y que interviene en la respiración.
		Se encarga de la absorción de nutrientes.

Rotula las partes del corazón señaladas y responde a las preguntas.

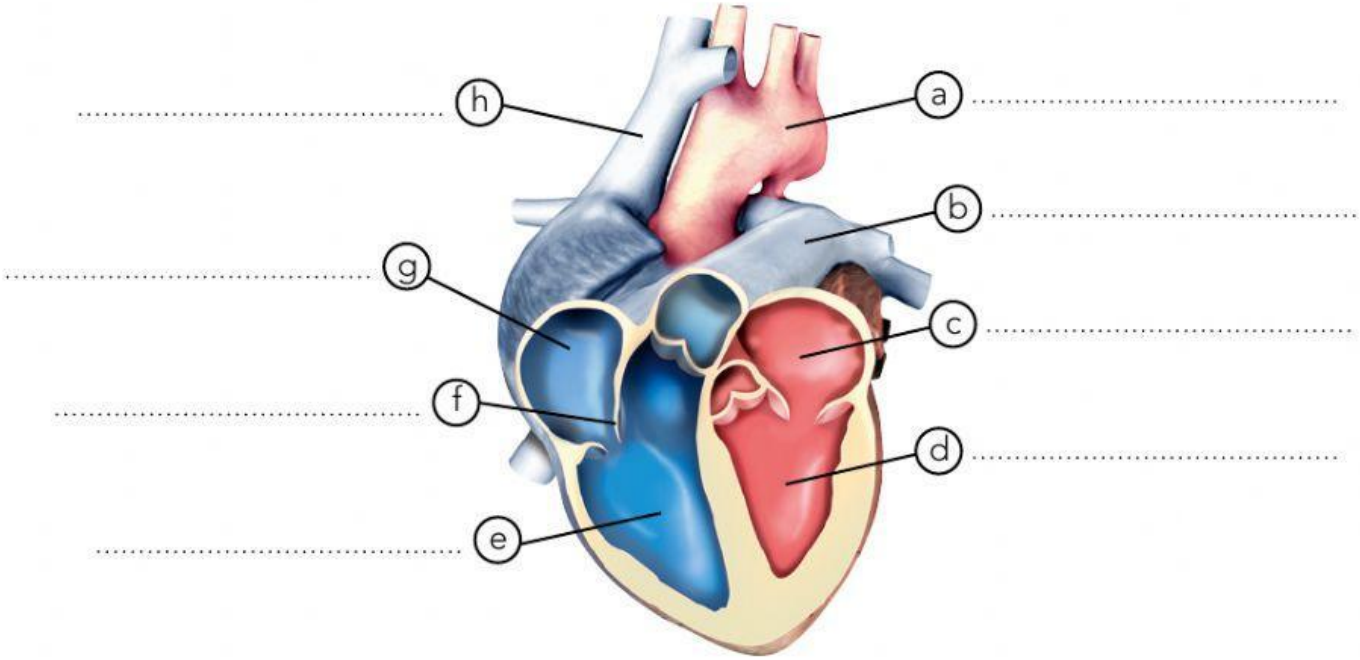

a) ¿Qué tipo de vasos sanguíneos llevan la sangre desde las distintas partes del cuerpo hasta el corazón?

.....

b) ¿Qué tipo de vasos sanguíneos llevan la sangre desde el corazón hasta los distintos órganos?

.....

Completa los tres procesos que tienen lugar en la función de relación y ordénalos.

Procesamiento de la	Ejecución de las	Recepción de
.....	.....	.....

¿Qué partes del cuerpo están implicadas en cada uno de los procesos anteriores?

.....

.....

.....

Rotula las partes del ojo señaladas y responde a las preguntas.

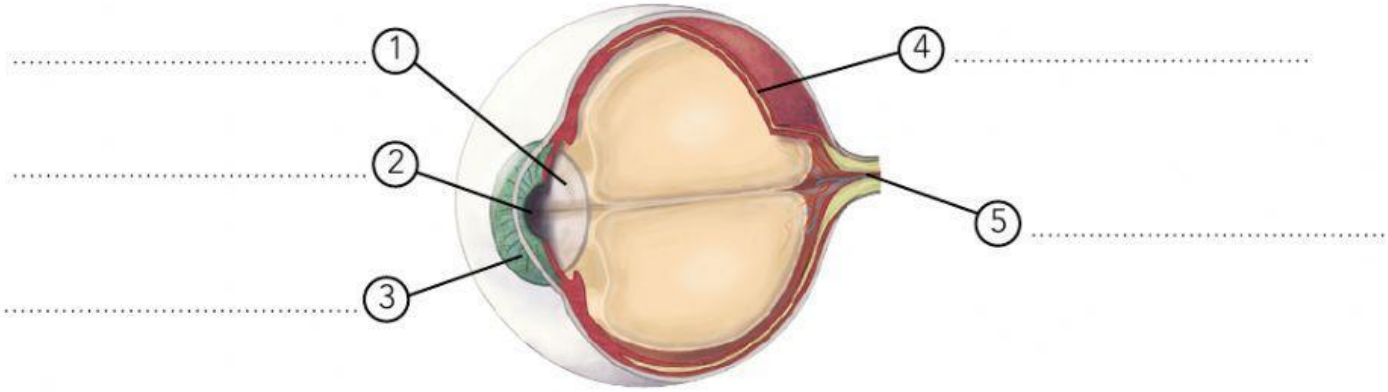

a) ¿Cómo se llaman las células receptoras del ojo?

.....

b) ¿En qué parte del ojo se localizan?

.....

c) ¿Qué función realizan esas células?

.....

Relaciona cada órgano con su definición.

Encéfalo	Parte del sistema nervioso central que se encuentra en el interior de la columna vertebral.
Músculos	Órganos que producen sustancias como la saliva, el sudor, los jugos digestivos o las hormonas.
Glándulas	Parte del sistema nervioso central que se encuentra en el interior del cráneo.
Médula espinal	Parte del sistema nervioso formada por los nervios.
Sistema nervioso periférico	Cordones de neuronas que forman el sistema nervioso periférico.
Nervios	Órganos formados por células capaces de contraerse al recibir un impulso nervioso.

Escribe los nombres de las tres partes del encéfalo de la imagen y relaciona cada una con su función.

Controla los movimientos voluntarios y el equilibrio. (1)

Es responsable del pensamiento, la memoria, las emociones y los sentimientos. (2)

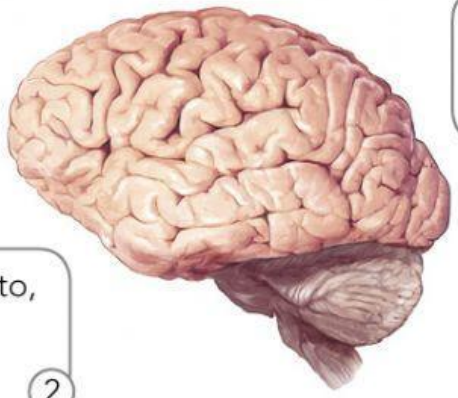

Controla los latidos del corazón y la ventilación pulmonar. (3)

(1) .....

(2) .....

(3) .....

Completa la siguiente tabla.

Órgano	Aparato	Función
		Producen los espermatozoides.
Trompas de Falopio		
Útero		
		Conducto por el que se expulsa la orina. Atraviesa el interior del pene.
Ovarios		

Escribe el nombre del proceso o la estructura a la que corresponden las siguientes definiciones.

a) .....: período que comienza con la producción de espermatozoides por parte de los testículos o la liberación de óvulos maduros por parte de los ovarios.

b) .....: expulsión del bebé y la placenta del cuerpo de la madre.

c) .....: unión de un óvulo y un espermatozoide para formar el cigoto.

d) .....: membrana llena de líquido que protege al embrión durante el embarazo.

Relaciona cada fase del embarazo con una característica.

Primer trimestre	El feto se encaja, colocándose con la cabeza hacia la salida del útero.
Segundo trimestre	El embrión pasa a llamarse feto.
Tercer trimestre	Se forma la placenta.

Selecciona qué recomendaciones ayudan a mantener la salud tanto física como mental durante la pubertad.

- [ ] Una buena higiene personal.
- [ ] No es necesario prestar atención a la higiene de las partes externas del aparato reproductor.
- [ ] Es importante el respeto mutuo.
- [ ] Decidir y actuar teniendo en cuenta lo que es saludable, justo o respetuoso.