ΟΝΟΜΑ: _____

ΜΑΘΗΜΑΤΙΚΑ 9η ΕΝΟΤΗΤΑ

Κεφ.53 Αριθμοί μέχρι το 10.000

1. Συμπληρώνω τους αριθμούς που λείπουν.

8.100 8.200 _____ _____ _____ _____ _____ _____

9.930 9.940 _____ _____ _____ _____ _____ _____

8.994 8.995 _____ _____ _____ _____ _____ _____

2. Συμπληρώνω τις λέξεις ή τα ψηφία που λείπουν.

7.399			επτά χιλιάδες εξακόσια τριάντα έξι
8.065			επτά χιλιάδες έντεκα
9.407			οχτώ χιλιάδες τετρακόσια δύο
9.999			εννιά χιλιάδες πέντε

3. Φτιάχνω στον άβακα τους παρακάτω αριθμούς.

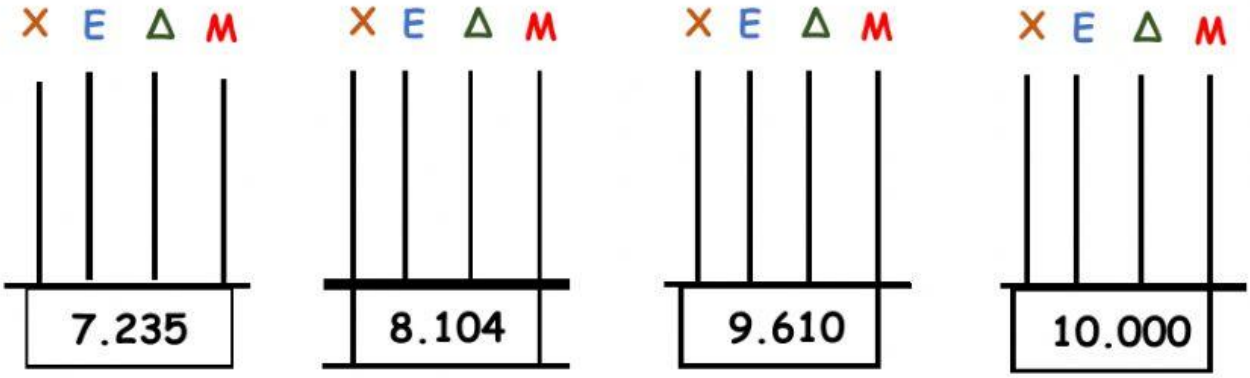

4. Γράφω ποιον αριθμό δείχνει ο άβακας στα κουτάκια.

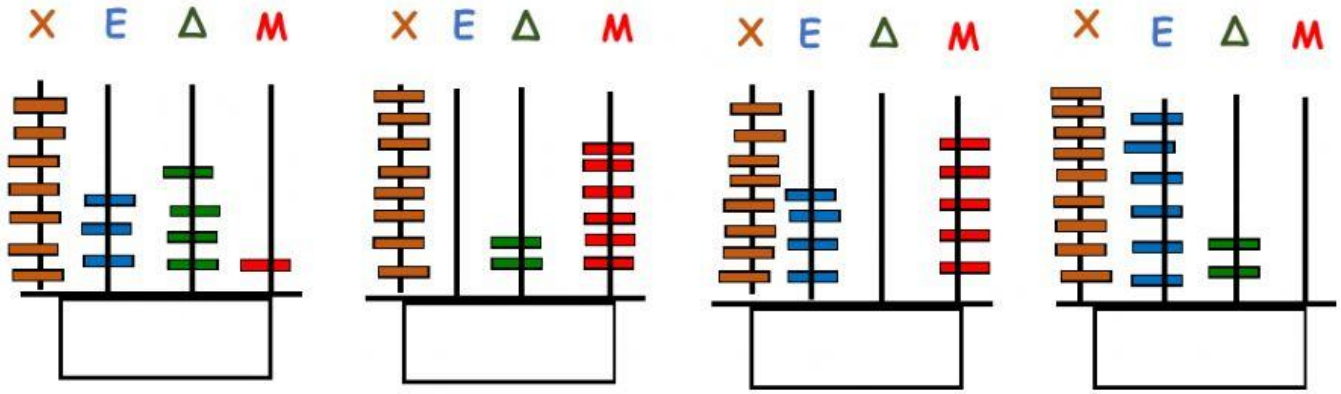

5. Βρίσκω την αξία που έχει κάθε φορά ο αριθμός 8

8.691 Έχει αξία: 8.000

7.084 Έχει αξία: _____

9.008 Έχει αξία: _____

7.860 Έχει αξία: _____

6. Αναλύω τον κάθε αριθμό σε άθροισμα, όπως το παράδειγμα.



7.254 = 7.000 + 200 + 50 + 4

8.995 = _____

9.006 = _____

7.800 = _____

8.333 = _____

7. Γράφω τον προηγούμενο και τον επόμενο αριθμό σε καθέναν από τους παρακάτω αριθμούς.

_____ 8.000 _____	_____ 7.369 _____	_____ 9.500 _____
_____ 7.800 _____	_____ 8.270 _____	_____ 9.999 _____

8. Βρίσκω τον μεγαλύτερο και τον μικρότερο αριθμό χρησιμοποιώντας τα παρακάτω ψηφία.

Μικρότερος αριθμός: _____

8 **6** **9** **7**

Μεγαλύτερος αριθμός: _____