2 Cuenta los regalices y une con flechas.

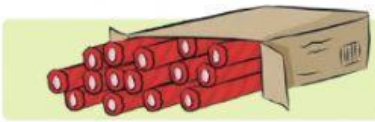

12

quince

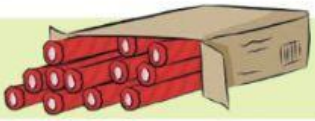

13

trece

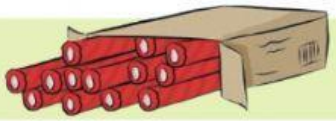

15

doce

3 Rodea los números que tengan 1 decena.

8 11 14 13 7 15 9

4 Repasa y completa como en el ejemplo.

trece → 13 son 1 D y 3 U.

once → ☐ son ☐ D y ☐ U.

quince → ☐ son ☐ D y ☐ U.

5 ¿Qué número tiene tantas letras como la cantidad que expresa?