¿Cuánto tiempo ha pasado?



_____

_____

14:30 16:45

_____

12:45 13:30

_____

21:15 22:00

_____

- Resuelve.

El partido de baloncesto empezó a las 5 de la tarde y acabó dos horas más tarde. ¿A qué hora acabó el partido? Marca la hora de inicio y final en los relojes.

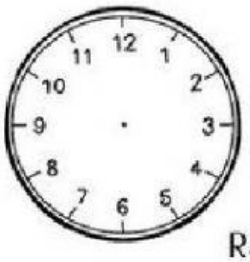



Respuesta: _____

El tren sale a las 10:15 de la mañana y llega a su destino a las 6 de la tarde. ¿Cuánto tiempo estará viajando?

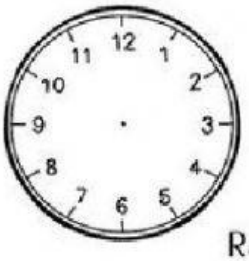

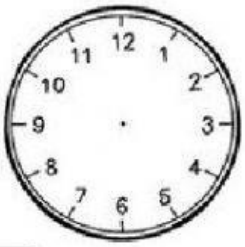

Respuesta: _____

La fiesta de cumpleaños es a las 17:30 y tengo que volver a casa a las 19:45. ¿Cuánto tiempo estaré fuera?

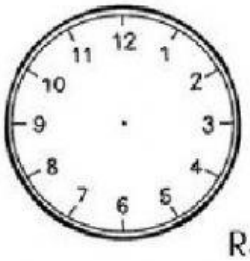



Respuesta: _____