DE COMPRAS EN EL PUEBLO

Hoy mi madre me ha mandado a hacer algunas compras y esto es lo que he comprado y los tickets que me han dado. Relaciona cada producto con el establecimiento donde lo he comprado

FERRETERÍA "CARO"
C/GUZMANES
TREBUJENA

PRODUCTO 1 3.80 €
PRODUCTO 2 0.70 €

JUEVES 12:05 HORAS
GRACIAS POR SU VISITA

WWW.CUSTOMRECEIPT.COM

MERCERÍA "MUTI"
PASEO ANDALUCÍA
TREBUJENA

PRODUCTO 1 3.80 €
PRODUCTO 2 2.65 €
PRODUCTO 3 0.75 €

JUEVES 20:50 HORAS
GRACIAS POR SU VISITA

WWW.CUSTOMRECEIPT.COM

PLAZA DE ABASTOS
C/ VERACRUZ
TREBUJENA

PRODUCTO 1 4.80 €
PRODUCTO 2 3.95 €
PRODUCTO 3 2.55 €

JUEVES 11.15 HORAS
GRACIAS POR SU VISITA

WWW.CUSTOMRECEIPT.COM

ELECTRODOMÉSTICOS JOSE M
AVENIDA DE SEVILLA
TREBUJENA

PRODUCTO 1 35.90 €

JUEVES 19:10 HORAS
GRACIAS POR SU VISITA

WWW.CUSTOMRECEIPT.COM



Indica a qué hora hice la compra en cada lugar:

- **Ferretería Caro**: Hice la compra a las ____ de la ____
- **Plaza de Abastos** : Hice la compra a las ____ de la ____
- **Mercería "Muti":** Hice la compra a las ____ de la ____
- **Electrodomésticos José Mari**: Hice la compra a las ____ de la ____

Arrastra estableciendo el orden de compras a lo largo del día:

1º	2º	3º	4º
MERCERÍA	FERRETERÍA	ELECTRODO-MÉSTICOS	PLAZA DE ABASTOS

Calcula el tiempo transcurrido entre la finalización de una compra y la otra:

- Desde que terminé la compra en la Plaza de abastos hasta que terminé la compra en la ferretería transcurrieron ____ minutos.

- Desde que terminé la compra en eletrodomésticos José Mari hasta que acabé en la mercería transcurrieron ____ hora y ____ minutos.

el_aula_diversa_de_ana_tere

Mi madre quiere saber cuánto me he gastado en cada establecimiento. ¿Me puedes ayudar a calcularlo?

En Ferretería Caro me he gastado ☐ euros

En Mercería Muti me he gastado ☐ euros

En Plaza de Abastos me he gastado ☐ euros

En Electrodomésticos José Mari me he gastado ☐ euros

Calcula ahora el valor de las compras que hice por la mañana:

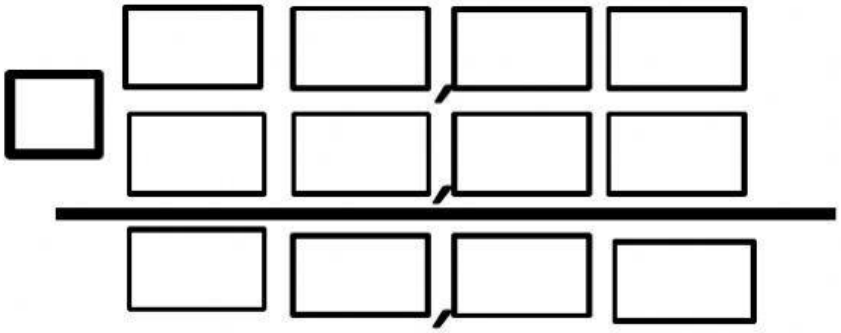

Por la mañana gasté ☐ euros.

Calcula ahora el valor de las compras que hice por la tarde:

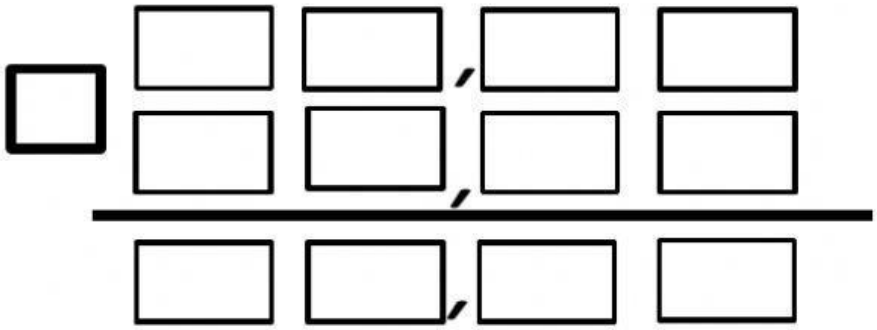

Por la tarde gasté ☐ euros.

¿Cuándo gasté más dinero por la mañana o por la tarde?
Gasté más dinero por la ☐

Calcula la diferencia de dinero entre lo que me gasté por la mañana y lo que gasté por la tarde:

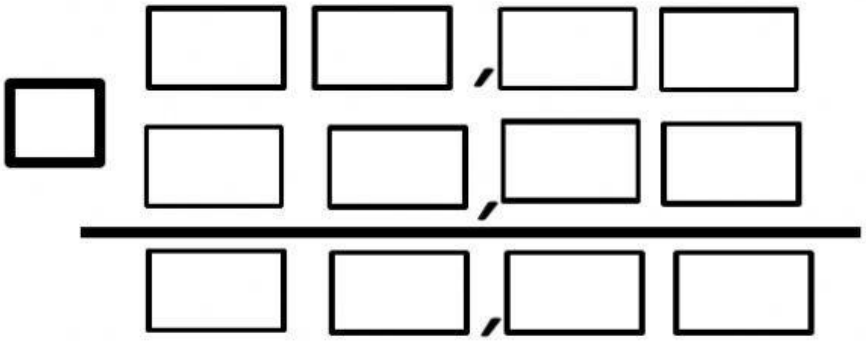

La diferencia entre lo que gasté por la mañana y lo que gasté por la tarde es de ☐ euros.

Calcula el total de lo gastado por la mañana y lo gastado por la tarde:

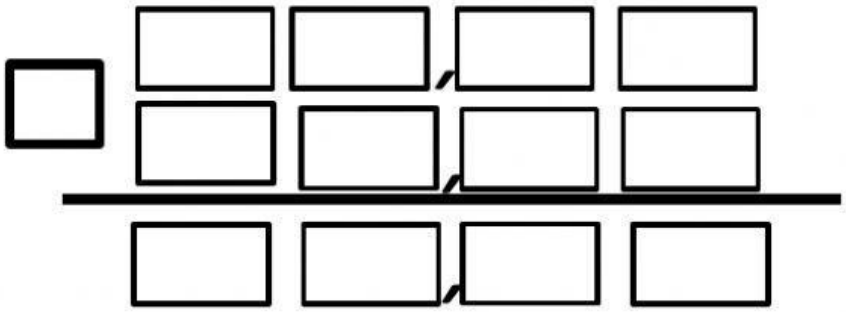

Representa con la menor cantidad de billetes y monedas el dinero que me he gastado: