¿ACEPTÁIS EL RETO DE LÓGICA SUPERTICS?

1 ¿CUÁNTOS ELEMENTOS SUMAN LOS DOS CONJUNTOS?

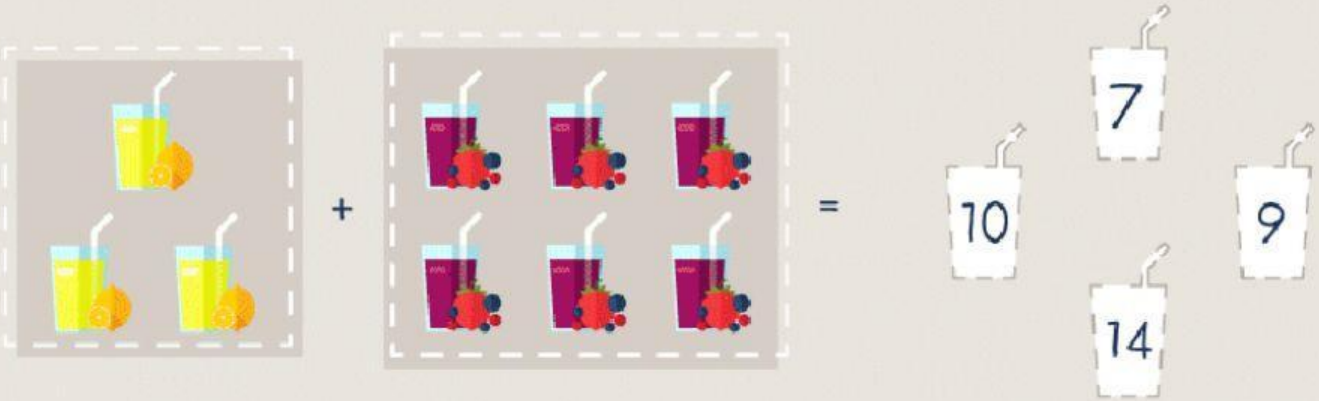

2 MARCA LA IMAGEN QUE SEGUIRÁ LA SERIE:



3 SELECCIONA LA RESPUESTA CORRECTA:

EN UNA MESA DE LA CLASE CABEMOS 12 NIÑOS. SI HOY SOLO SOMOS 5, ¿CUÁNTOS NIÑOS NO HAN VENIDO?

12 NIÑOS	8 NIÑOS	17 NIÑOS	7 NIÑOS

4 ¿QUÉ FRUTAS HAN COMIDO EL MISMO NÚMERO DE NIÑOS?

5 SELECCIONA LA RESPUESTA CORRECTA:

PACO HA HECHO 4 GALLETAS
Y TONI 10 GALLETAS MÁS QUE PACO.

¿CUÁNTAS GALLETAS HA HECHO TONI?

16 GALLETAS

3 GALLETAS

6 GALLETAS

14 GALLETAS

6 ¿QUÉ IMAGEN SIGUE EN LA SERIE?



7 ¿QUÉ NÚMERO NO SE CORRESPONDE CON LA SERIE?

8 SELECCIONA LA RESPUESTA CORRECTA:

SI CUATRO MANZANAS PESAN 400G., ¿CUÁNTO PESA CADA MANZANA?

800 GRAMOS.

400 GRAMOS.

100 GRAMOS.

200 GRAMOS.

9 MARCA LA SOLUCIÓN AL PROBLEMA PLANTEADO:

CON 4 CERILLAS HAGO UN CUADRADO. ¿CUÁNTOS CUADRADOS HARÉ CON 16 CERILLAS?

8 CUADRADOS

4 CUADRADOS

ENUNCIADO INCORRECTO

3 CUADRADOS

10 SELECCIONA LA RESPUESTA CORRECTA:

DOS PERSONAS SALIERON A PASEAR, EL MENOR ES HIJO DEL MAYOR, PERO EL MAYOR NO ES PADRE DEL MENOR. ENTONCES ¿QUIÉN ES?