EL PAISAJE

1. Arrastra cada imagen a su lugar según sea un elemento natural o un elemento hecho por las personas.

ELEMENTOS NATURALES			ELEMENTOS HECHOS POR LAS PERSONAS		

2. Coloca el nombre de las partes de una montaña.

LADERA **PIE** **CUMBRE**



3. Une cada uno de los elementos del paisaje de interior y de costa con su imagen.

MONTAÑA

VALLE

PLAYA

LLANURA

SIERRA

ACANTILADO

ISLA

4. Coloca cada uno de los puntos cardinales en su lugar correspondiente.

NORTE

ESTE

SUR

OESTE



5. Teniendo en cuenta los puntos cardinales, observa la imagen y elige la opción correcta pinchando en la flechita.

- El bosque está en el _____.
- El río está en el _____.
- El acantilado está en el _____.
- La playa está en el _____.