REPASO DE MATEMÁTICAS - UNIDAD 11

Lee muy atentamente cada actividad antes de responder. Puedes emplear todo el tiempo que quieras. ¡Mucho ánimo!

Actividad n.º 1

Calcula estas sumas y une las que tengan el mismo resultado.

238 + 225 = ☐ •

87 + 216 = ☐ •

62 + 46 = ☐ •

328 + 267 = ☐ •

• 267 + 328 = ☐

• 225 + 238 = ☐

• 216 + 87 = ☐

• 46 + 62 = ☐

Actividad n.º 2

Realiza las sumas aplicando la propiedad asociativa.

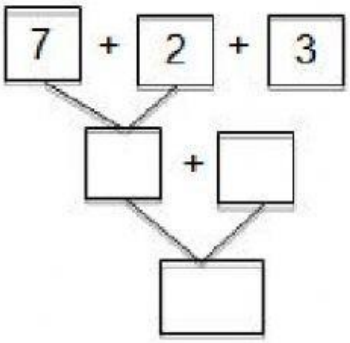

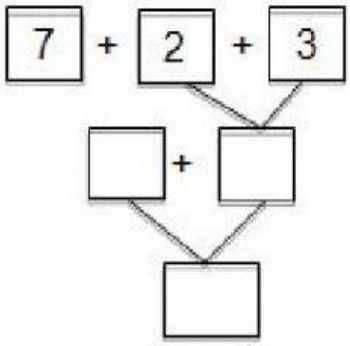

Actividad n.º 3

Calcula mentalmente las siguientes operaciones.

564 + 30 = ☐

456 + 20 = ☐

856 + 40 = ☐

567 – 50 = ☐

678 – 30 = ☐

964 – 20 = ☐

Actividad n.º 4

Lorena ha comprado 9 sobres de cromos. Cada sobre tiene 4 cromos. ¿Cuántos cromos ha comprado?

Une cada multiplicación con su resultado y señala la multiplicación que resuelve el problema.

☐	9 x 5 ●	● 36
☐	9 x 6 ●	● 63
☐	9 x 4 ●	● 45
☐	9 x 7 ●	● 54

Actividad n.º 5

Relaciona cada objeto con la figura a la que se parece.

Pelota de tenis

Dado de parchís

Embudo

Lata de refresco

Sandía

Cucurucho de helado

Rollo de papel higiénico

Actividad n.º 6

Continúa la serie sumando 50 cada vez.

Ahora continúa la serie restando 50 cada vez.

Actividad n.º 7

Andrés tiene esta caja con canicas y quiere coger una con los ojos cerrados.
Señala la probabilidad correcta en cada situación.

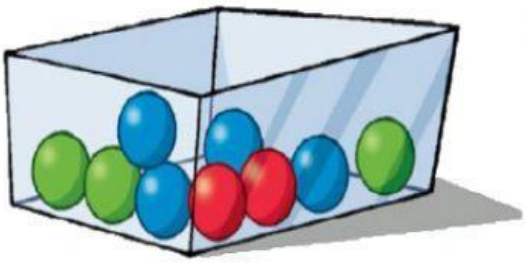

Coger una canica roja.

Coger una canica negra.

Coger una canica azul.

Coger una canica roja, verde o azul.

Antonio tiene esta ruleta. Elige en cada situación la probabilidad de estos sucesos.

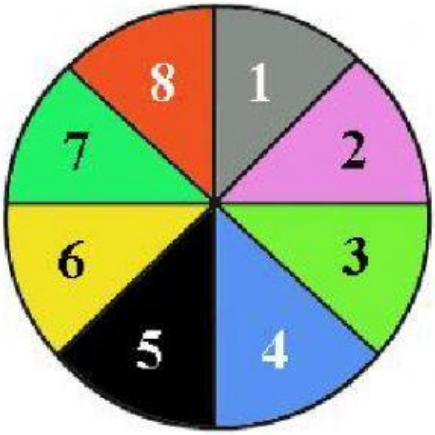

Caer en un número par.

Caer en el 4.

Caer en una casilla verde.

Caer en el 9.

Caer en un número menor que 30.

Caer en un número mayor que 2.

Actividad n.º 8

Completa las siguientes operaciones, averiguando el término que falta en cada caso.

456	=	403	+		873	=	825	+	
388	=		+	311	568	=		+	555

Actividad n.º 9

Esta tabla corresponde a la fruta que toma Alberto durante una semana. Obsérvala y responde a las siguientes preguntas.

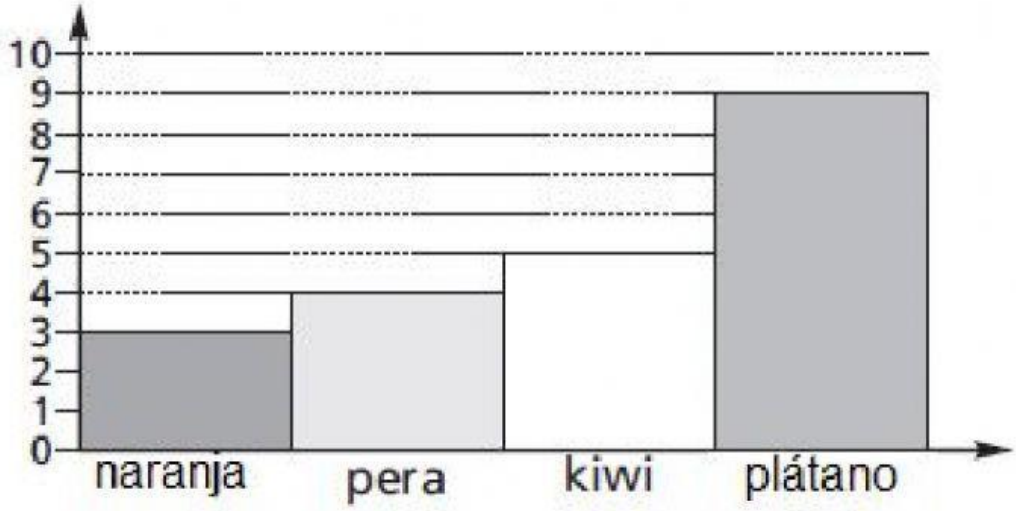

¿Cuál es la fruta que menos ha comido? _____

¿Cuántas piezas de fruta ha tomado en total? ____

¿Cuántos plátanos ha comido? ____

¿Cuántos plátanos más que peras ha tomado? ____

¿Cuántas piezas ha comido entre kiwis y naranjas? ____

¡Enhorabuena por tu esfuerzo!