Име: ……

География и икономика V клас

Изходно ниво

1. **За кое от изброените имат принос Великите географски открития?**
   А) развитието на науките география и картография
   Б) развитието на въздушния транспорт
   В) съхраняването на природата на Земята
   Г) намаляване на броя на населението на Земята

2. **В каква посока са по-добре развити короните на дърветата в Северното полукълбо?**
   А) север В) изток
   Б) запад Г) юг

3. **Ако численият мащаб на картата е М 1:3 000 000, каква ще е дължината на 1 см от картата в действителност?**
   А) 30 км В) 3000 км
   Б) 300 км Г) 30 000 км

4. **Каква карта разпознавате на изображението?**
   А) общогеографска
   Б) политическа
   В) стопанска
   Г) природна

5. **Кои са верните географски координати за т. А на картата?**
   А) 20^0 с.ш. и 35^0 и.д.
   Б) 30^0 с.ш. и 70^0 и.д.
   В) 45^0 ю.ш. ш 140^0 и.д.
   Г) 60^0 с.ш. и 30^0 и.д.

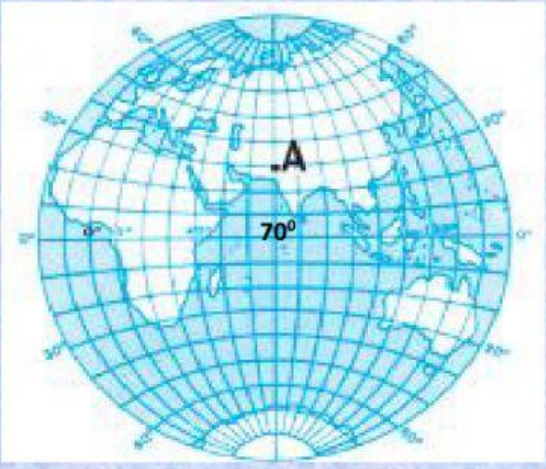

6. Кой сезон започва в Южното полукълбо на 21 март, когато слънчевите лъчи падат под прав ъгъл на Екватора?

А) пролетта В) есента
Б) лятото Г) зимата

7. Кое от изброените е излишно, ако трябва да кажем какъв е вътрешния строеж на Земята?

А) мантия В) ядро
Б) покривка Г) земна кора

8. Кой континент е обозначен на картата с числото 1?

А) Африка В) Северна Америка
Б) Азия Г) Южна Америка

9. Как се наричат скалите, които се образуват в недрата на Земята при висока температура и налягане?

А) магмени В) седиментни
Б) метаморфни Г) други

10. Равнините и низините НЕ са най-удобните места за:

А) заселване В) ски туризъм
Б) прокарване на пътища Г) развитие на земеделие

11. За кой климатичен пояс на Земята се отнася климатограмата на станция Мапуту?

А) екваториален
Б) влажен тропичен
В) умерен
Г) полярен

12. Океанските и морските течения се образуват под въздействието на:

А) земетресения
Б) постоянни ветрове
В) притегателната сила на Луната
Г) солеността на водите

13. През кой сезон е пълноводна река Марица според хидрограмата?

А) пролет В) зима
Б) есен Г) лято

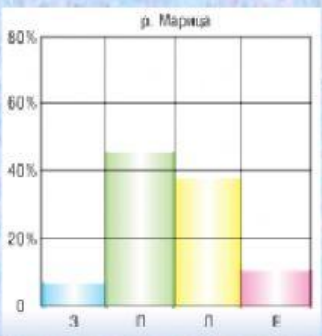

14. **За коя природна зона се отнася характеристиката:** „*Включва територии от Африка, Южна Америка, Азия и Австралия. Почвите са латеритни. Най-високите дървета достигат до 60 – 80 м височина. Много от растенията цъфтят през цялата година. Характерни са термитите, колибри, папагали, горила, орангутан, ленивец, тапир, ягуар, леопард и др.*“?

А) савани

Б) влажни екваториални гори

В) гори в умерения пояс

Г) тропични пустини

15. По диаграмата определете: В кой от континентите на Земята живеят най-много хора?

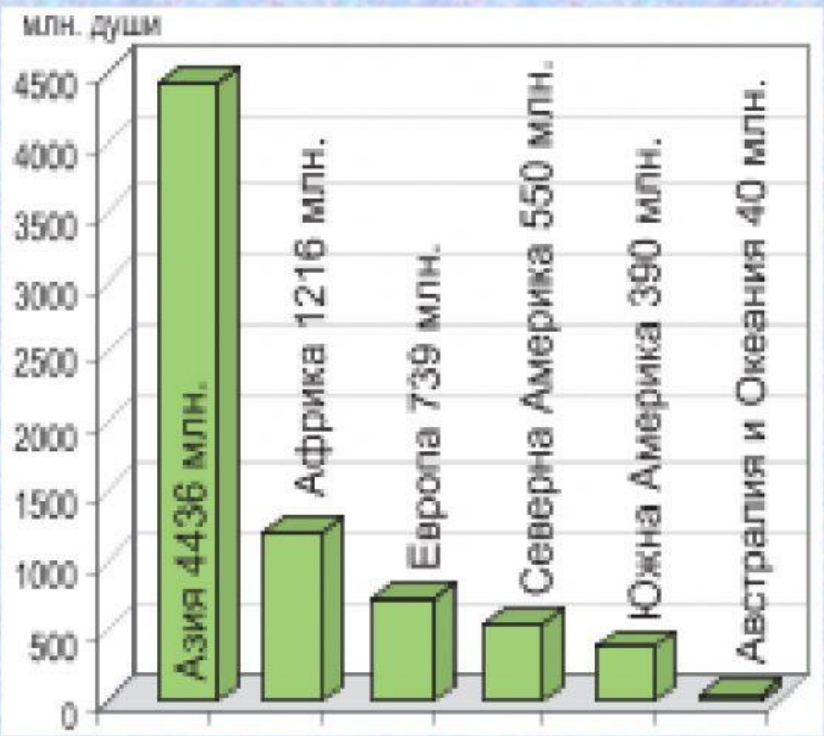

16. Представители на коя раса разпознавате на илюстрацията?

А) монголоидна

Б) негроидна

В) европеидна

Г) друга

17. Подредете държавите по площ:

Китай		9597 хил. км^2
САЩ		9809 хил. км^2
Русия		17 075 хил. км^2
Канада		9976 хил. км^2

18. **За коя стопанска дейност се отнася характеристиката:** *„Сред най-древните стопански дейности на хората е и има първостепенно значение за изхранването на населението. Основен производител на хранителни продукти и доставя суровини за производство на храни. Над ½ от населението на планетата е заето с тази дейност“*?

А) промишленост В) земеделие
Б) транспорт Г) туризъм

19. Отбележете кое от изброените НЕ се отнася за географското положение на Африка.

А) Граничи с Европа чрез Средиземно море и Гибралтарския проток.
Б) Граничи с два океана.
В) Разположена е в четирите полукълба.
Г) Панамският канал я отделя от Азия

20. Кое е общото между континентите Африка и Антарктида?

А) Голяма част от териториите им е покрита с ледници.
Б) Имат вулкани и богати находища на полезни изкопаеми.
В) Имат богата растителност и разнообразен животински свят
Г) Гъсто населени континенти.

21. Какъв вид устие на река разпознавате на изображението?

……

22. Коя природна зона заема 40% от континента Африка, климатът ѝ се отличава със сух и влажен сезон? За растителността са характерни баобаб и чадъровидна акация. Само тук се срещат зебри, жирафи, лъвове.

……..

23. Бушмени – „хора от пустошта“ – се нарича населението на:

А) Северна Африка
Б) високите планини на изток
В) полупустинните райони на Южна Африка
Г) котловината на р. Конго

24. За коя от страните се отнася характеристиката:

„Най-добре развитата държава в континента. Има 11 официални езика и изключително разнообразна природа“?

А) Република Южна Африка

Б) Алжир

В) Египет

Г) Нигерия