PRUEBA ESCRITA DE MATEMÁTICAS
4º ED. PRIMARIA - UNIDAD 11

1. Une con flechas cada descripción con el dibujo correspondiente y escribe después el nombre del polígono como el ejemplo. E4.2.1

Figura plana de 4 lados desiguales.

Decágono regular

Figura de 10 ángulos.

Figura plana de 5 lados desiguales.

Figura plana de 4 ángulos agudos y 4 obtusos.

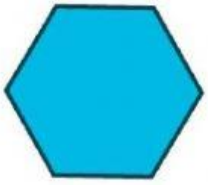

Figura plana de 6 lados iguales.

2. Dibuja en tu libreta estas figuras usando la regla. Ponles el nombre debajo para identificar cada una y envía a tu maestra una foto. E4.2.4

- Un cuadrilátero irregular
- Un romboide
- Un triángulo obtusángulo
- Un heptágono irregular
- Un triángulo isósceles

3. Di de qué tipo son los siguientes triángulos y cuadriláteros como en el ejemplo. E4.2.2

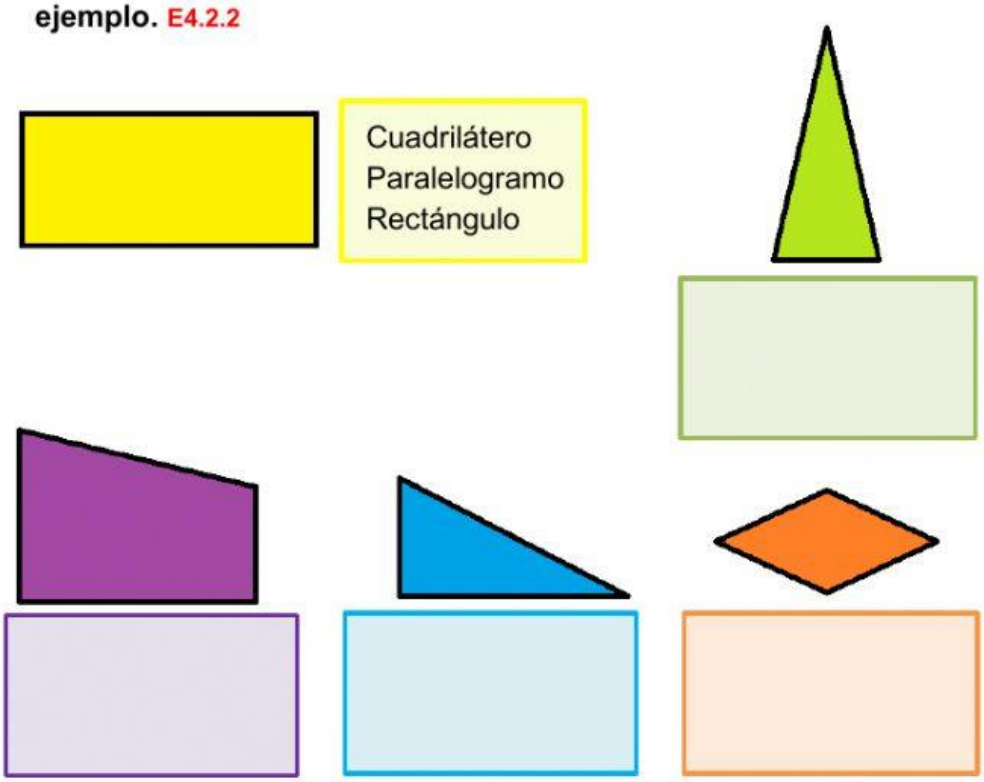

4. Calcula el perímetro de estos polígonos. E4.2.6

24 cm	Hexágono regular de lado 5 cm
12 cm	Pentágono regular de lado 8 cm
30 cm	Cuadrado de lado 6 cm
40 cm	Triángulo equilátero de lado 4 cm

5. Calcula el perímetro de estos polígonos. E4.2.6

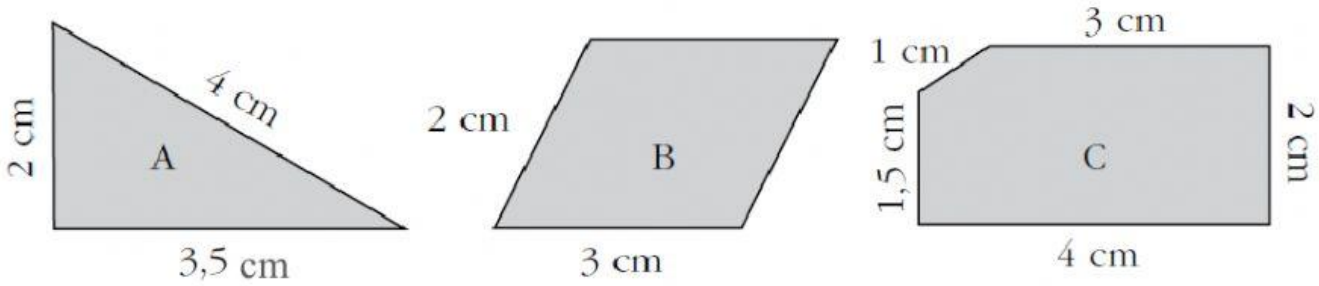

_____ **cm** _____ **cm** _____ **cm**

6. Une cada objeto señalado del dibujo con la forma que tiene. E4.2.5

Trapezoide **Triángulo equilátero** **Romboide** **Octógono** **Triángulo isósceles** **Trapecio**

7. **Clasifica estos cuerpos geométricos. Para evitar fallos en la corrección automática, por favor ve colocándolos en orden (de izquierda a derecha y de arriba abajo). E4.3.1**

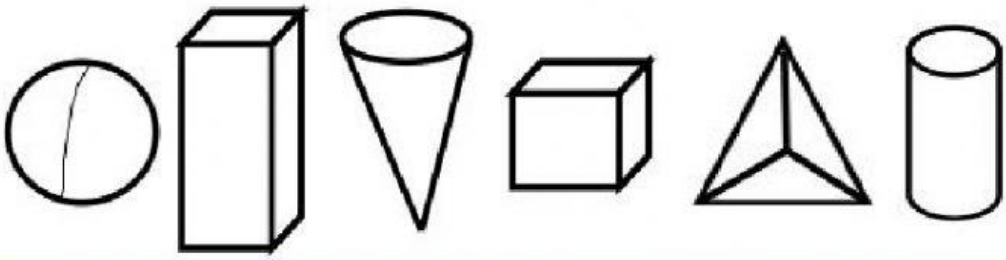

Poliedros	Cuerpos redondos

8. **Escribe las partes de estos cuerpos geométricos y sus nombres. Recuerda que de los poliedros tienes que decir su nombre completo (ejemplo: prisma octogonal, pirámide pentagonal, etc.). E4.3.1**

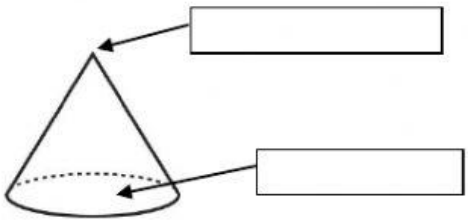

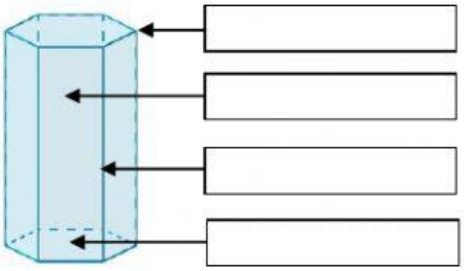

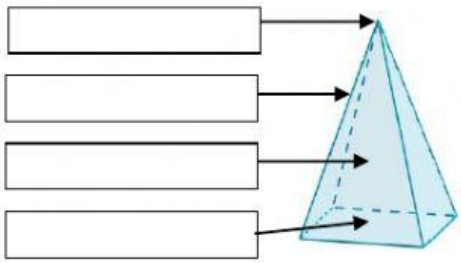

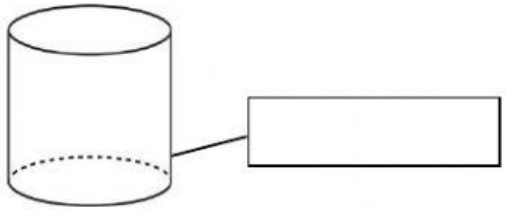

9. Describe las figuras o cuerpos geométricos a los que se parecen estos objetos como en el ejemplo. E4.3.3

Es un **poliedro**.

Tiene forma de **pirámide decagonal**.

Tiene **1 base** y **10 caras**.

Tiene **1 vértice**.



Es un _____.

Tiene forma de _____.

Tiene ___ bases.

Tiene ___ cara curva.

Tiene ___ vértices.



Es un _____.

Tiene forma de _____.

Tiene ___ bases.

Tiene ___ caras.

Tiene ___ vértices.

Es un _____.

Tiene forma de _____.

Tiene ___ base.

Tiene ___ cara curva.

Tiene ___ vértice.



Es un _____.

Tiene forma de _____.

Tiene ___ bases.

Tiene ___ caras.

Tiene ___ vértices.



Es un _____.

Tiene forma de _____.

Tiene ___ lados.

Tiene ___ vértices.

Tiene forma de _____.

Tiene ___ lados.

Tiene ___ vértices.