1.- Lurraren hiru zatiak hauek dira:

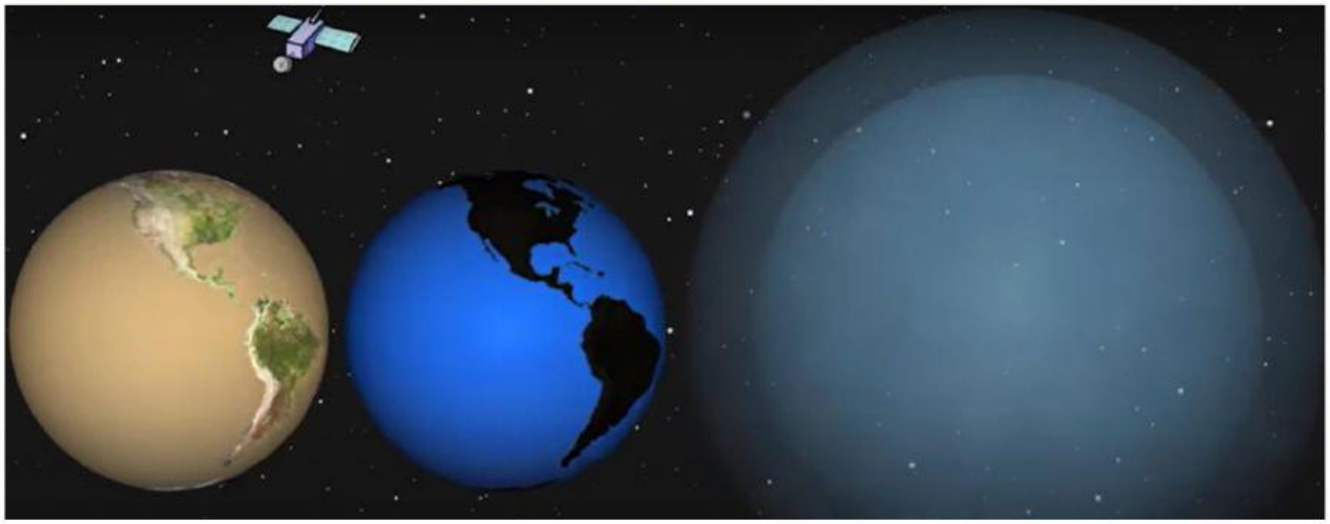

2.- Kokatu geosferako geruzak behar den lekuan:

NUKLEOA AZALA MANTUA

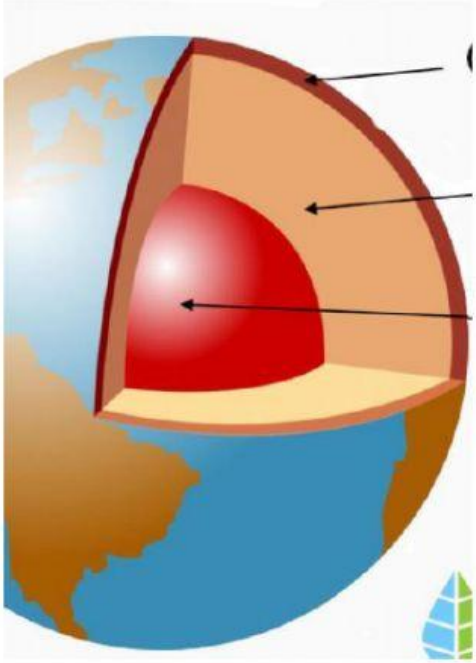

3.- Markatu egia direnak:

-Hidro hitzak lurra esan nahi du.

-Planetako ur multzoa hidrosfera deitzen da.

-Planetako zatirik handiena urez estalita dago.

4.- NON DAUDE? LOTU.

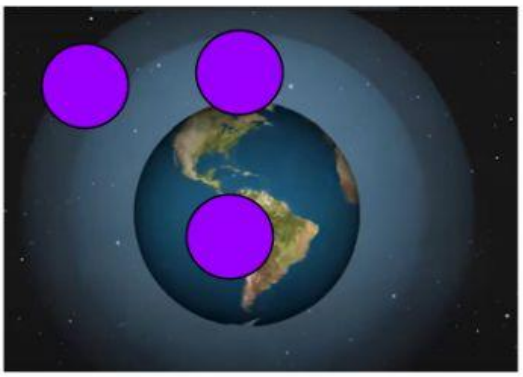

TROPOSFERA

ESTRATOSFERA

HIDROSFERA ETA GEOSFERA

5.- ZEIN EGOERATAN DAGO URA ARGAZKI HAUETAN?