Gráfico de barras y de líneas doble

Esta tabla representa el número de goles que han marcado dos equipos (el Gris y el Verde) durante los tres últimos meses del año. Y, a continuación, se representan estos datos en un *gráfico de barras doble*.

Meses	Equipo Gris	Equipo Verde
Octubre	12	10
Noviembre	8	10
Diciembre	8	6

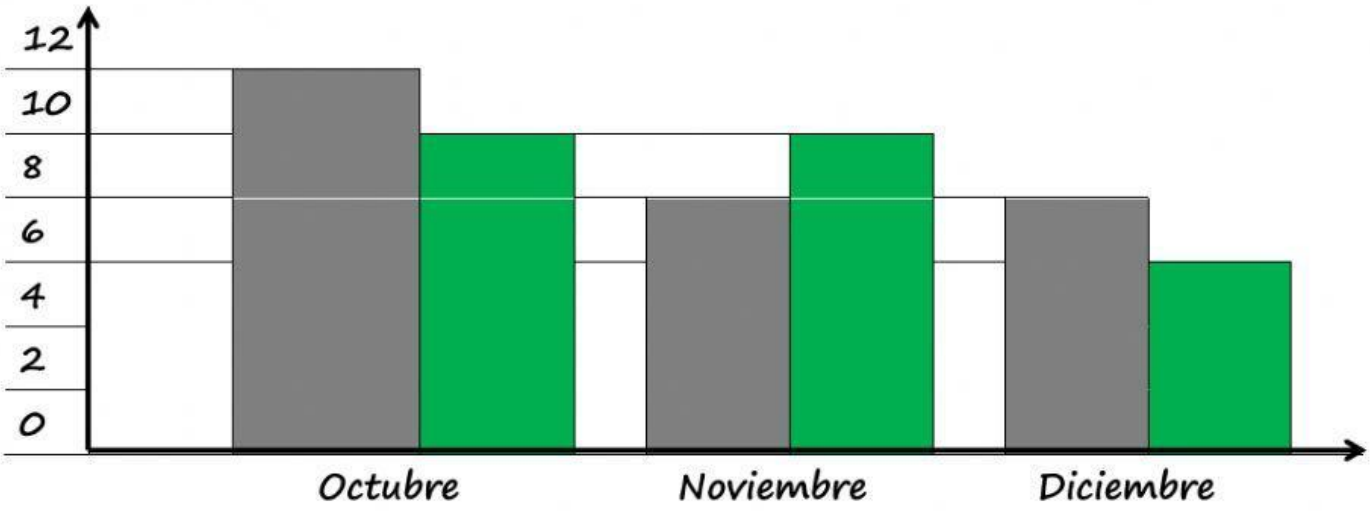

La siguiente tabla representa el progreso de dos atletas en su entrenamiento de levantamiento de pesas. Junto a ella, su representación en un *gráfico de líneas doble*.

	(Lila)	(Verde)
	Atleta A	Atleta B
2015	50 kg	60 kg
2016	70 kg	70 kg
2017	90 kg	80 kg

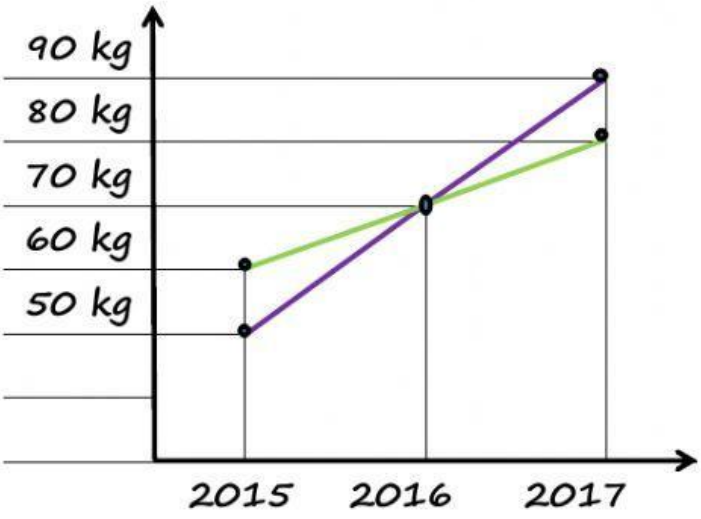

1.- En dos colegios que tienen 970 alumnos y alumnas se han realizado varios estudios estadísticos de las notas que han conseguido. En este gráfico se representa la cantidad de chicos (en verde) y de chicas (en lila) con sus notas conseguidas en Matemáticas. Podemos ver que han sacado un "0" diez chicos (en verde) y diez chicas (en lila). Podrías decir:

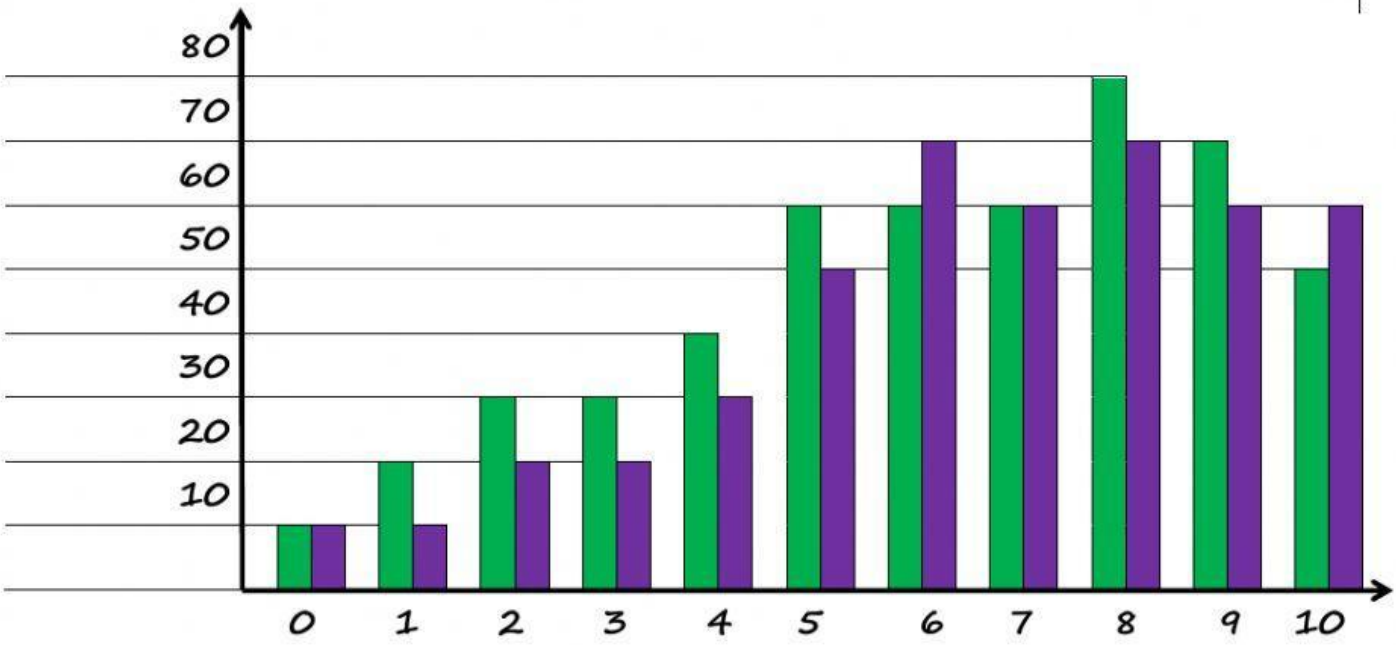

a) ¿Cuántos chicos han conseguido un diez?

b) ¿Cuántas chicas han conseguido un diez?

c) ¿Cuántos chicos han tenido MENOS de un cinco?

d) ¿Cuántas chicas han tenido MENOS de un cinco?

e) ¿Cuántos chicos han obtenido 9 o 10?

f) ¿Cuántas chicas han obtenido 9 o 10?

g) ¿Hay más chicos o chicas que han conseguido el 7?

h) Si juntamos las notas 5 y 6, ¿hay más chicos o chicas?

i) ¿Cuántos chicos han aprobado? (De 5 hacia arriba).

j) ¿Cuántas chicas han aprobado? (De 5 hacia arriba).

2.- En dos pueblos del Gurugú, Picoleta de Arriba y Picoleta de Abajo, estuvo lloviendo todos los días durante una semana entera. En esta gráfica de líneas doble se representa la cantidad de litros por metro cuadrado (l/m²) que llovió en los dos pueblos. Podrías decir:

(L=lunes, M=martes, X=Miércoles, J=jueves, V=viernes...)

Picoleta de Arriba (———) Picoleta de Abajo (———)

(Podemos ver que el lunes llovió en Picoleta de Arriba, 10 l/m²; y en Picoleta de abajo, 20 l/m²).

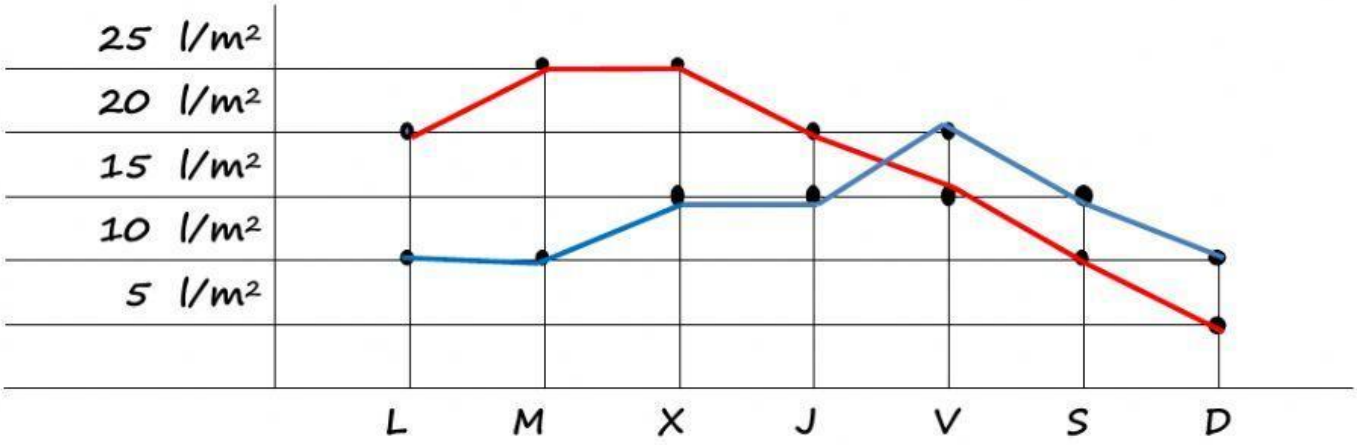

a) ¿Cuánto llovió el viernes en Picoleta de Arriba? l/m².

b) ¿Qué cantidad de precipitación hubo el miércoles en Picoleta de Abajo?

c) ¿Dónde llovió más el sábado? En .

d) ¿Dónde llovió más el martes?

e) ¿Dónde llovió más si sumamos toda la semana?

f) ¿Durante qué días llovió más en Picoletas de Arriba?

g) ¿Durante qué días llovió más en Picoletas de Abajo?