**الجبرُ** أوْجِدْ طولَ الضِّلعِ المَجهولِ لِكُلِّ شَكْلٍ.
مُحيطُ كُلِّ شَكْلٍ هُوَ 50 cm.

**7.**




المَجهولُ هُوَ _____ سنتيمتراتٍ.

**8.**

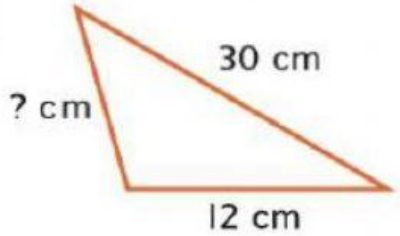


المَجهولُ هُوَ _____ سنتيمتراتٍ.

**9.**

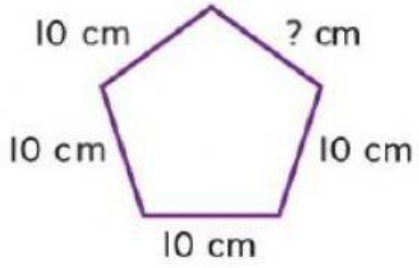


المَجهولُ هُوَ _____ سنتيمتراتٍ.

**10.**

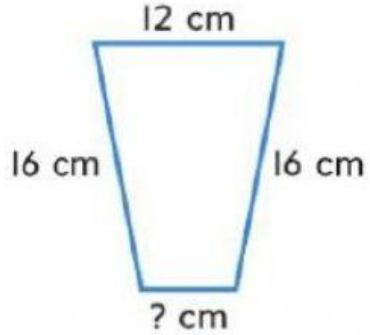


المَجهولُ هُوَ _____ سنتيمتراتٍ.