1. Cuenta el número de lados y clasifica los polígonos.

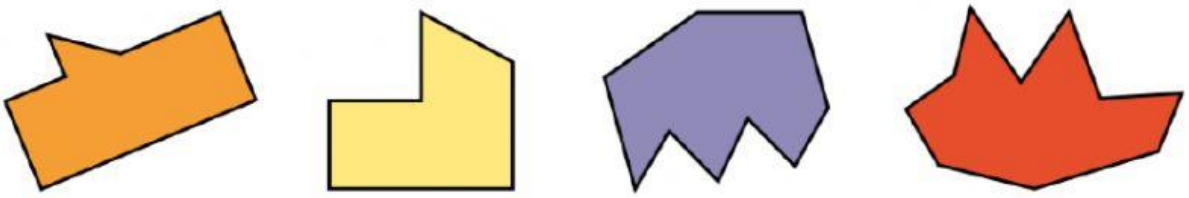

Nº lados:	Nº lados:	Nº lados:	Nº lados:
Nombre:	Nombre:	Nombre:	Nombre:

2. Determina si cada polígono es cóncavo o convexo.



3. Une

Un cuadrilátero cóncavo.

Un hexágono cóncavo.

Un pentágono convexo.

Un octógono convexo.