Viernes 29 de mayo de 2020

Parcial de problemas

La familia de Paula pondrá una valla (cerca) a un terreno que compraron en Tapalpa. Observa en la imagen las medidas del terreno y calcula los metros de valla que deben comprar para ponerle a todo el perímetro del terreno.

75 m

120 m

¿Qué voy a obtener?

¿Qué operación debo realizar?

Respuesta Unidad de medida

Viernes 29 de mayo de 2020

Parcial de problemas

La mamá de Karla compró la siguiente caja fuerte. Obtén el volumen que ocupa dicha caja.

¿Qué voy a obtener?

¿Qué operación debo realizar?

Respuesta Unidad de medida

Calcula el volumen de cada cuerpo.

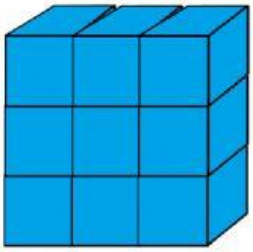

V = _____ ____

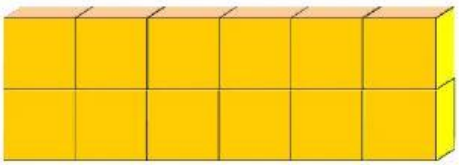

V = _____ ____

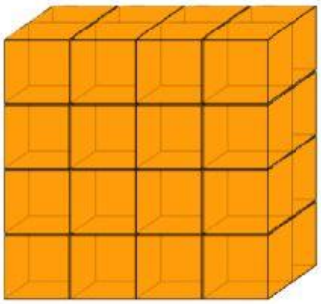

V = _____ ____

Calcula el área de cada figura.



A = _____ ____



A = _____ ____

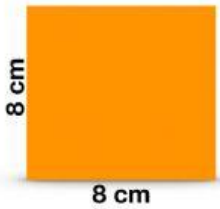

A = _____ ____