NÚMEROS DECIMALES 8

1. Expresa cada fracción o número mixto en decimales.

a) $\frac{7}{10} =$ ____

b) $1\frac{7}{10} =$ ____

c) $\frac{9}{10} =$ ____

d) $3\frac{9}{10} =$ ____

Expresa los decimales como fracción o número mixto en su forma más simple.

a) 0,3 = ____

b) 2,3 = ____

c) 0,6 = ____

d) 3,6 = ____

2. Completa con los decimales que faltan.

a)

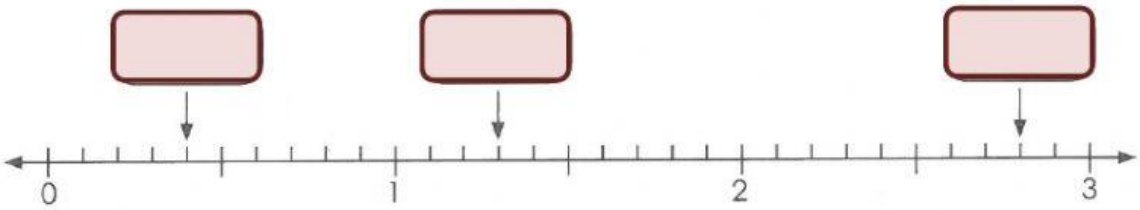

b)

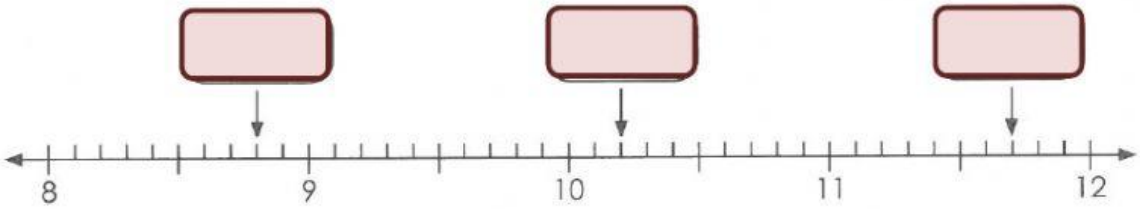
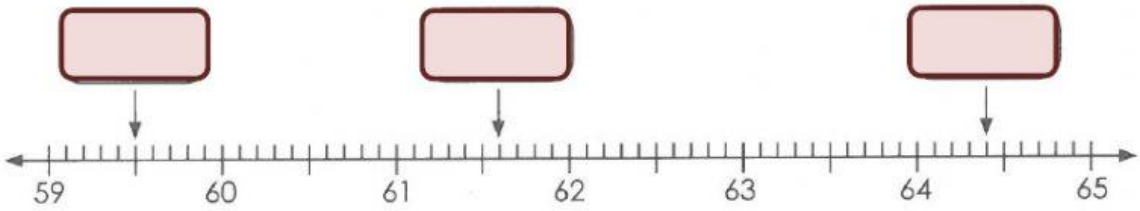
c)