**12.** Relaciona cada angle amb la seva mesura:

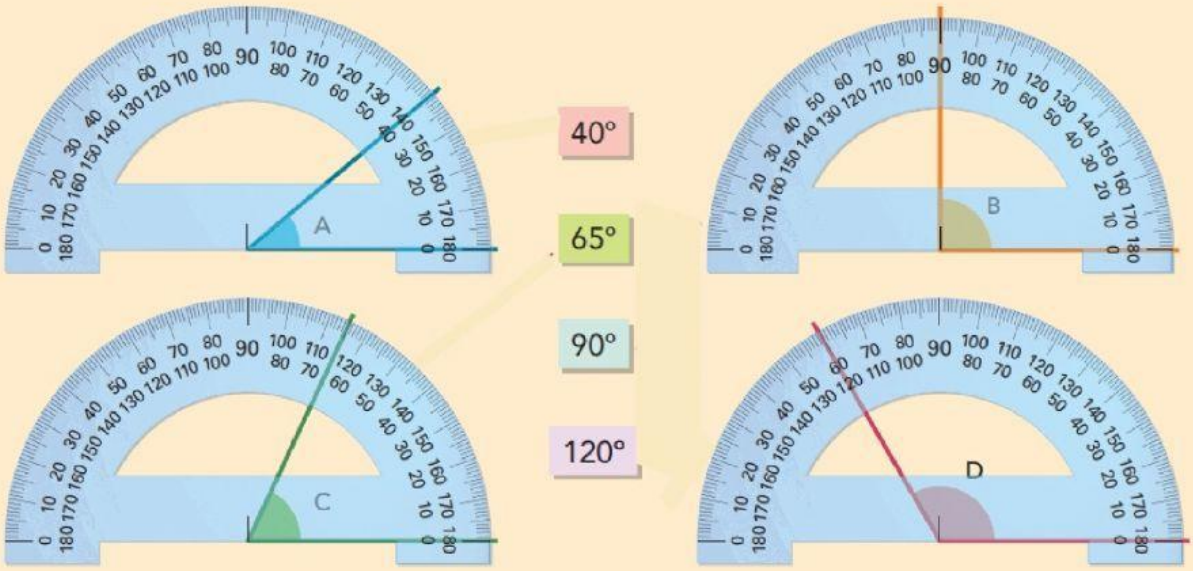


40°

65°

90°

120°

**13.** Escriu quant fan aquests dos angles:

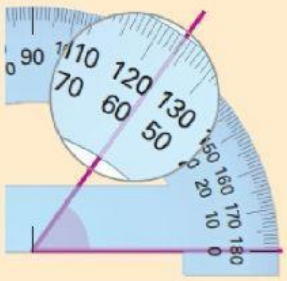

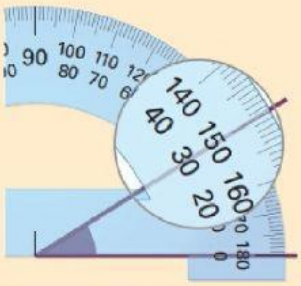

**14.** Escriu a cada angle la mesura que aproximadament li correspon:

90° 150° 35°

**15.** Ordena de gran a petit els angles que s'indiquen:

> ..... > ..... > .....

**16.** Relaciona cada figura amb la definició dels angles que representa:

**Adjacents**: tenen en comú el vèrtex i un costat, i sumen un angle pla.

**Consecutius**: tenen en comú el vèrtex i un costat.

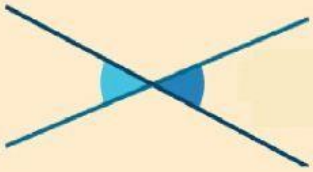

**Oposats pel vèrtex**: tenen en comú el vèrtex i els costats estan sobre dues rectes que es tallen.

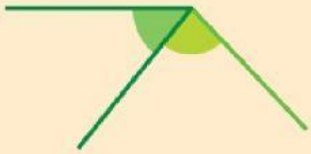
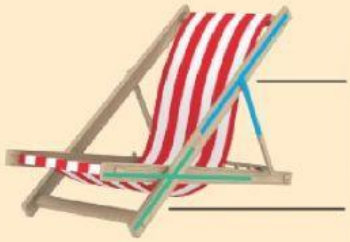
**17.** Escriu quina classe d'angles són els indicats: