LES FRACCIONS

1. En cadascuna de les cinc primeres figures, la fracció pintada correspon a la fracció donada?



$\frac{1}{4}$

$\frac{1}{3}$

$\frac{1}{3}$

$\frac{1}{6}$

$\frac{3}{4}$

2. Quina fracció de l'hexàgon està pintada?

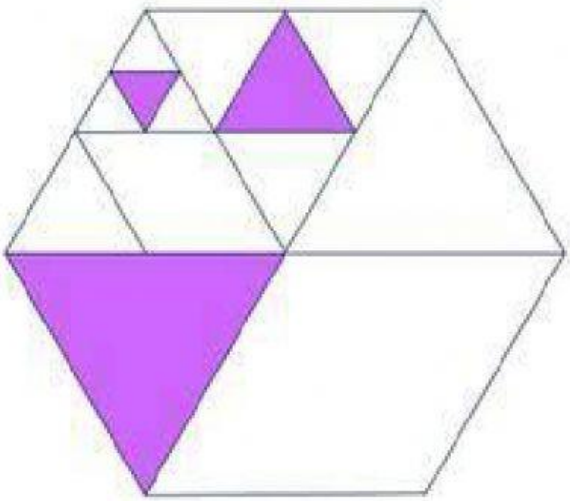

LIVEWORKSHEETS

3. Quina és la fracció de la peça pintada en cada cas? Uneix les fraccions amb la seva representació.

a)



b)

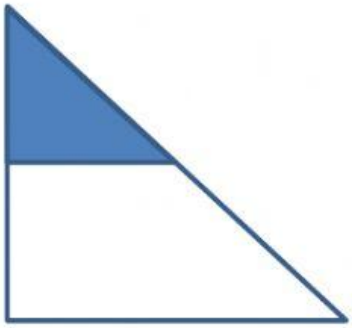

c)

d)

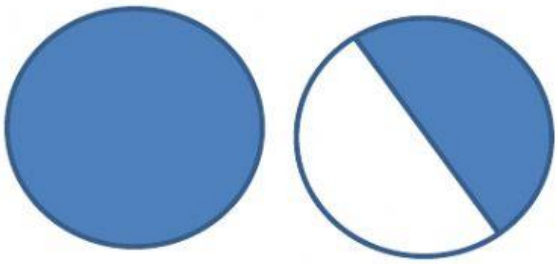

$\frac{1}{4}$ $\frac{3}{2}$ $\frac{1}{4}$ $\frac{1}{2}$

LIVEWORKSHEETS

4. Observeu les següents representacions d'una tauleta de xocolata. Hem pintat el tros que ens hem menjat i en blanc el que queda. Responeu les preguntes:

A: 

B: 

C: 

a) Escriviu la fracció que correspon al tros menjat per a cada partició de la tauleta de xocolata:

A: B: C:

b) La quantitat que hem menjat és la mateixa en cada tauleta de xocolata?

c) Com s'anomenen aquestes fraccions?

- Fraccions irreductibles
- Fraccions equivalents
- Fraccions pròpies

LIVEWORKSHEETS