PRUEBA FINAL DE MATEMÁTICAS 2º DE PRIMARIA

1. Ordena los siguientes números de mayor a menor y después escribe como se llaman.

425 987 342 977

2. Completa y escribe los siguientes números.



C, D y U

+ + =



C, D y U

+ + =

3. Relaciona cada figura con su nombre.

PENTÁGONO	HEXÁGONO	TRIÁNGULO	RECTÁNGULO	CUADRADO

4. Clasifica estos números en pares e impares:

280 178 369 448

321 741 572 706

679 456 235 633

PARES

IMPARES

5. Realiza las siguientes operaciones

125	657	234	375
+ 526	+ 123	+ 573	+ 291

464	600	371	763
- 271	- 356	- 206	- 299

6. Si tenemos 8 vasos y en cada vaso hay 2 cubitos de hielo, ¿cuántos cubitos de hielo tenemos en total?

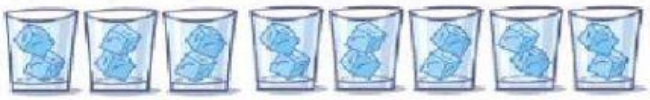

Hay ☐ x ☐ = ☐ cubitos.

7. Si tenemos 4 nidos con 3 huevos en cada uno, ¿cuántos huevos tenemos en total?

Hay ☐ x ☐ = ☐ Huevos

8. La peluquería “Dulces rizos” ha peinado a 142 señoras y 269 hombres en una semana. ¿Cuántos hombres han peinado más que señoras?

Datos:	Operación:
_____ SEÑORAS _____ HOMBRES	

Solución: _____

9. Escribe debajo qué forma tiene cada objeto.

10. Realiza las siguientes multiplicaciones.

5 x 5 = ☐

6 x 3 = ☐

3 x 10 = ☐

2 x 8 = ☐

4 x 9 = ☐

4 x 5 = ☐

7 x 2 = ☐

1 x 3 = ☐

6 x 6 = ☐

2 x 4 = ☐

11. Escribe el número anterior y posterior.

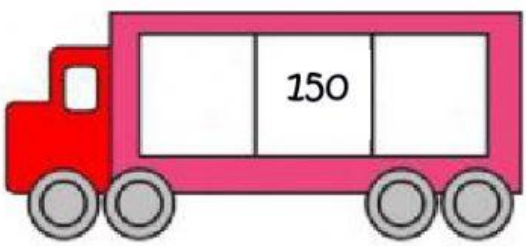

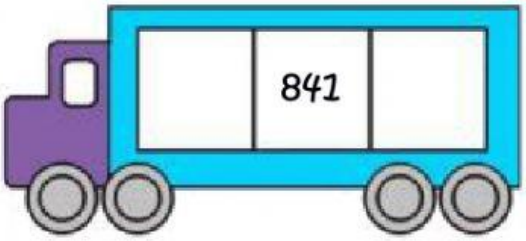

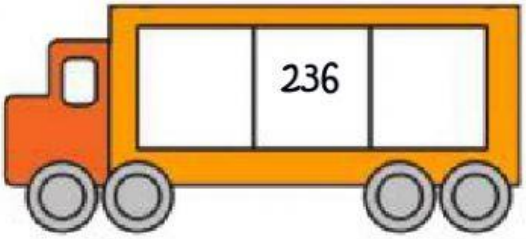

12. El ayuntamiento de Chinchón compra 587 mascarillas para adultos, y 328 para niños ¿Cuántas mascarillas podrán repartir entre los habitantes de Chinchón?

Datos:	**Operación:**
_____ ADULTOS _____ NIÑOS	

Solución: _____