Зорова сенсорна система. Зір.

I. Встановіть відповідність між частинами ока людини, їх описом та зображенням на рисунку

1.білкова оболонка (склера) 2.райдужна оболонка 3.кришталик 4.сітківка 5. жовта пляма 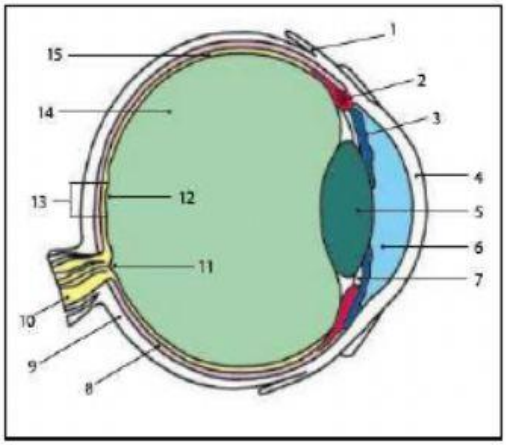 	А. внутрішня світлосприймальна оболонка очного яблука, яка містить фоторецептори; Б. передня частина судинної оболонки з пігментом, що визначає колір очей; В. зовнішня оболонка з колагеновими волокнами, що захищає око та зберігає форму; Г. ділянка в центрі сітківки, де містяться переважно колбочки; Д. прозорий еластичний двоопуклий утвір, що забезпечує фокусування променів світла на сітківці

II. Встановіть відповідність між порушеннями зору та їх схематичними зображеннями

1.Нормальний зір

2.Короткозорість

3.Далекозорість

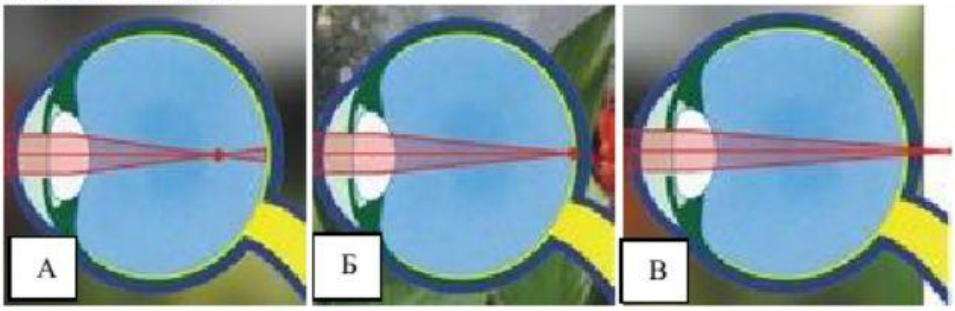

III. Встановіть послідовність проходження світлового променя через структури ока людини:

А. Кришталик
Б. Рогівка
В. Передня камера
Г.Сітківка
Д. Склисте тіло

LIVEWORKSHEETS

IV. Якими цифрами на малюнку позначено:

А. Слізна залоза

Б. Носослізний канал

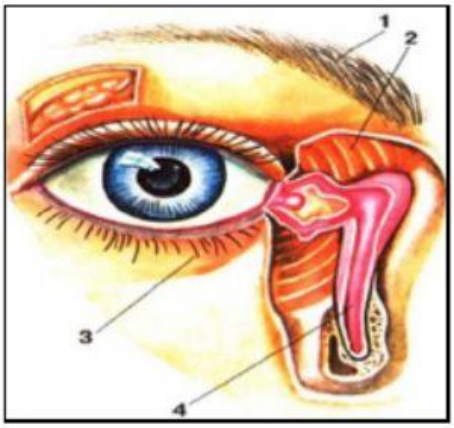

LIVEWORKSHEETS