PROBLEMAS (III)

1. Hay 7 árboles con 5 manzanas en cada uno. ¿Cuántas manzanas hay?

Escribe el número de manzanas que hay en cada árbol.

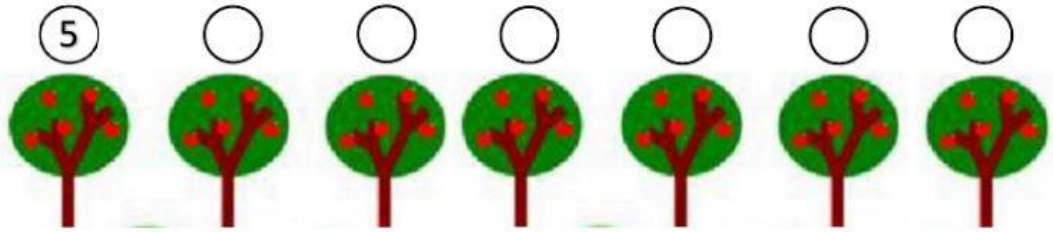

5 ○ ☐ = ☐

Hay ____ manzanas.

2. Hay 6 bicicletas con 2 ruedas cada una ¿Cuántas ruedas hay?

Escribe el número de ruedas que tiene cada bicicleta.

☐ ○ ☐ = ☐

Hay ____ _____.

3. Hay 3 coches con 4 ruedas cada uno. ¿Cuántas ruedas hay?

Escribe el número de ruedas que tiene cada coche.

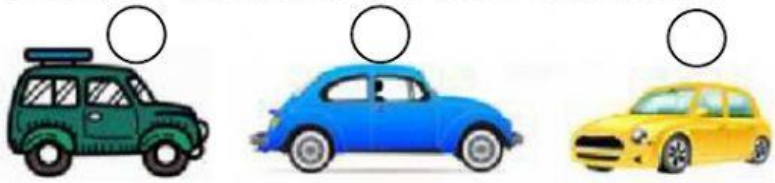

☐ ○ ☐ = ☐ **Hay ____ _____.**

LIVEWORKSHEETS

4. Hay 3 nidos con 5 huevos en cada uno. ¿Cuántos huevos hay?

Escribe el número de huevos que hay en cada nido.

Hay ____ _____.

5. Mi abuela usó 4 perchas y colgó 2 pantalones en cada una de ellas. ¿Cuántos pantalones colgó mi abuela?

Escribe el número de pantalones que colgó mi abuela en cada percha.

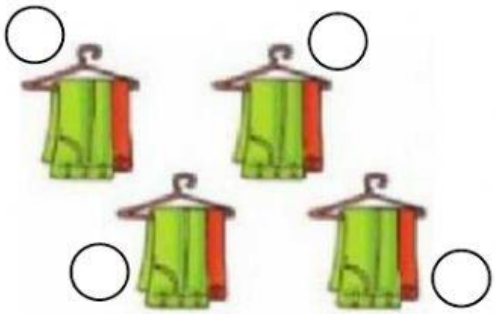

Mi abuela colgó ____ _____.

LIVEWORKSHEETS