REPASO TEMA 7

1. Descompón el número de cada cohete.

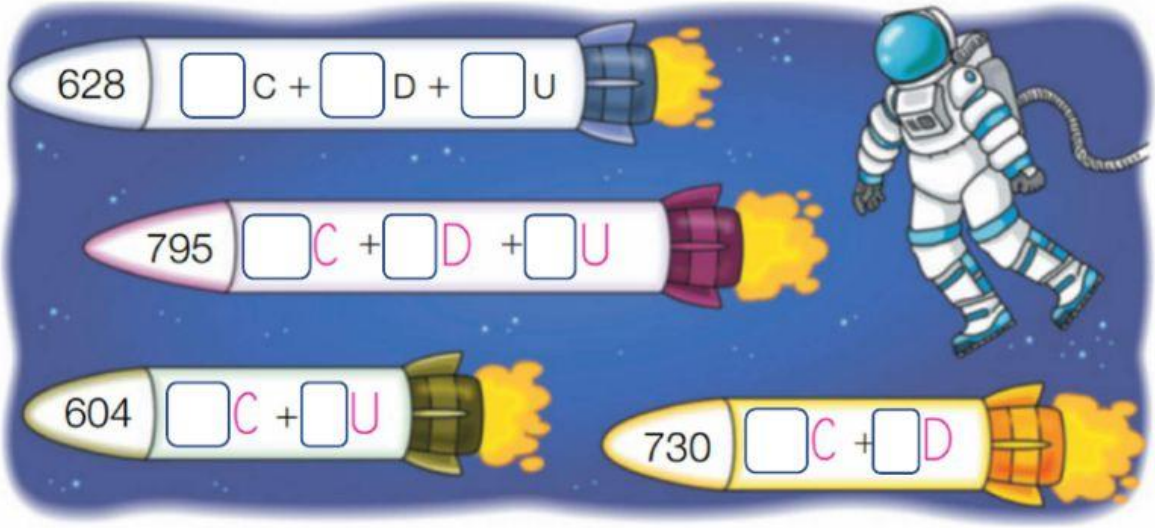

2. Compara y elige el signo.

549 < > 571

687 < > 734

408 < > 326

275 < > 278

754 < > 752

613 < > 596

3. Completa la tabla.

Número	Descomposición	Lectura
506	☐C + ☐U	Quinientos _____
☐	7 C + 2 D + 4 U	_____
613	☐C + ☐D + ☐U	_____
☐	6 C + 7 D	_____
790	☐C + ☐D	_____

LIVEWORKSHEETS

4. Series de números.

Resta 1 decena.

438 ☐ ☐ ☐ ☐

Suma 2 decenas.

247 ☐ ☐ ☐ ☐

5. Escribe qué número hay que sumar o restar para conseguir el resultado

80 → 85 → 82 → 88 → 95 → 93

62 → 66 → 61 → 71 → 76 → 74

6. Observa los números y escribe.

- Tienen 6 centenas. ▶ ☐ y ☐
- Tienen 7 decenas. ▶ ☐ y ☐
- Es mayor que 749. ▶ ☐
- Son mayores que 685 y menores que 720. ▶ ☐ ☐ y ☐

7. Cuenta y completa



☐ lados

☐ vértices

Es un _____



☐ lados

☐ vértices

Es un _____

LIVEWORKSHEETS

8. Marca los cuadriláteros.

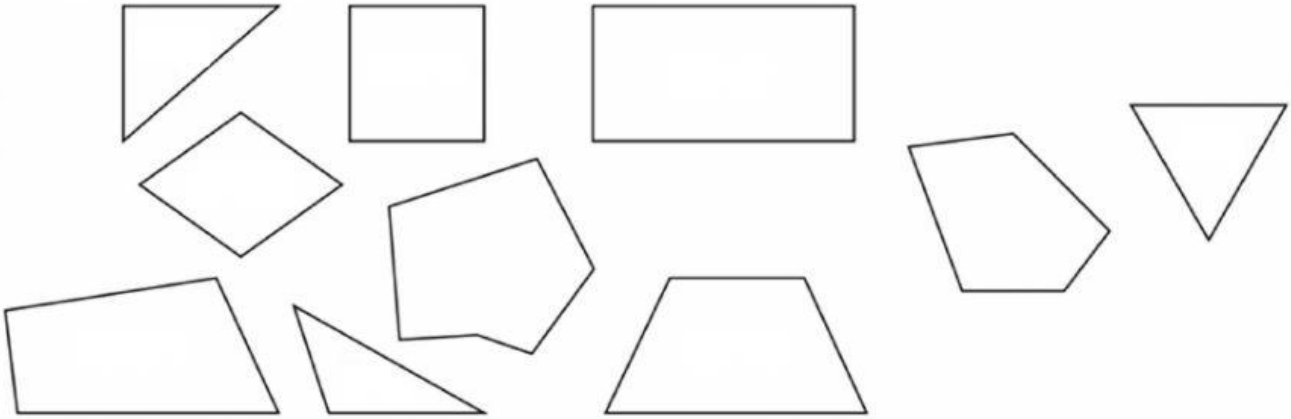

9. Elige el nombre de cada figura y contesta.



- ¿Qué tipo de polígono son? _____

10. Cuenta y completa.

- ¿Cuántos lazos hay?

☐ + ☐ + ☐ = ☐

☐ × ☐ = ☐

Hay ☐ lazos.

- ¿Cuántos botones hay?

☐ + ☐ + ☐ + ☐ = ☐

☐ × ☐ = ☐

Hay ☐ botones.

11. Resuelve.

2 × 4 = ☐	5 × 0 = ☐	2 × 7 = ☐	5 × 9 = ☐
2 × 6 = ☐	5 × 2 = ☐	2 × 9 = ☐	5 × 8 = ☐

LIVEWORKSHEETS

12. ¿Cuántas flores hay de cada tipo? Observa y calcula.

▸ ☐ + ☐ = ☐ × ☐ = ☐

▸ ☐ + ☐ + ☐ + ☐ + ☐ = ☐ × ☐ = ☐

▸ ☐ + ☐ + ☐ + ☐ + ☐ + ☐ = ☐ × ☐ = ☐

13. Lee, arrastra las pelotas a las bolsas y resuelve.

Hay 3 bolsas. En cada bolsa hay 5 pelotas.
¿Cuántas pelotas hay en total?

☐ ○ ☐ = ☐

Hay ☐ _____.

14. Lee, arrastra las manzanas a las bolsas y resuelve.

Hay 4 bolsas.
En cada bolsa hay 2 manzanas.
¿Cuántas manzanas hay en total?

☐ ○ ☐ = ☐

Hay ☐ _____.

LIVEWORKSHEETS

15. Lee los problemas y marca la operación que realizarías.

En un campo hay 45 castaños y 17 robles más que castaños. ¿Cuántos robles hay en el campo?

Operación: ☐ sumar ☐ restar

En una tienda hay 130 latas de atún y 20 latas menos de sardinas que de atún. ¿Cuántas latas de sardinas hay?

Operación: ☐ sumar ☐ restar

Un paquete de chicles tiene 5 chicles. ¿Cuántos chicles tiene Íñigo si ha comprado 3 paquetes?



Operación: ☐ sumar ☐ restar ☐ multiplicar

En una panadería se han vendido 69 barras de pan y 40 bollos de crema. ¿Cuántas barras más que bollos se han vendido?

Operación: ☐ sumar ☐ restar

LIVEWORKSHEETS