ชื่อ - นามสกุล ..... เลขที่.....ชั้น ม.3/4

ระบบสมการเชิงเส้นสองตัวแปร

<u>ตอนที่ 1</u> พิจารณากราฟของสมการเชิงเส้นสองตัวแปรที่กำหนดให้ต่อไปนี้ว่ามีคำตอบหรือไม่ ถ้ามีคำตอบ มี 1 คำตอบ หรือมีคำตอบมากมายไม่จำกัด

ข้อ 1

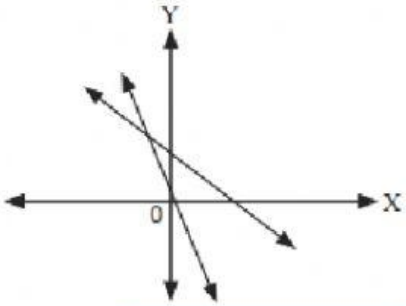

มีคำตอบหรือไม่

จำนวนคำตอบ

ข้อ 2

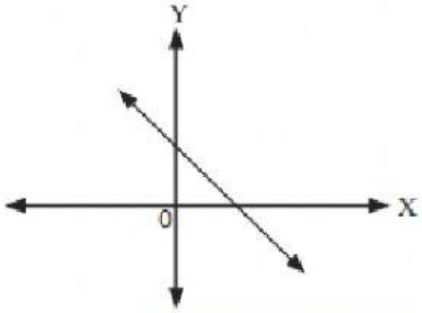

มีคำตอบหรือไม่

จำนวนคำตอบ

ข้อ 3

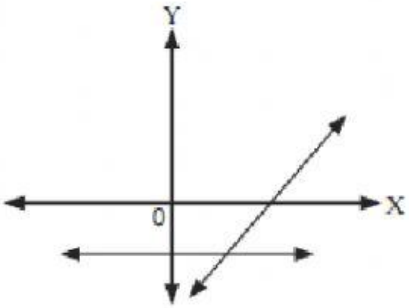

มีคำตอบหรือไม่

จำนวนคำตอบ

ข้อ 4

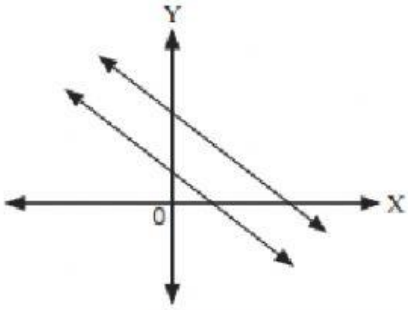

มีคำตอบหรือไม่

จำนวนคำตอบ

ข้อ 5

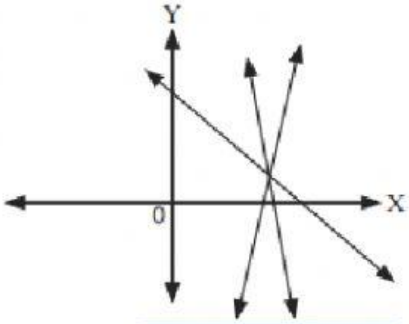

มีคำตอบหรือไม่

ข้อ 6

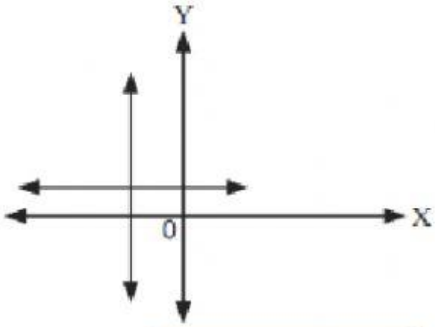

มีคำตอบหรือไม่

LIVEWORKSHEETS

จำนวนคำตอบ	จำนวนคำตอบ
ข้อ 7 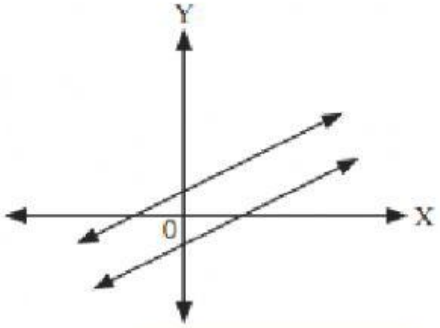 มีคำตอบหรือไม่ จำนวนคำตอบ	ข้อ 8 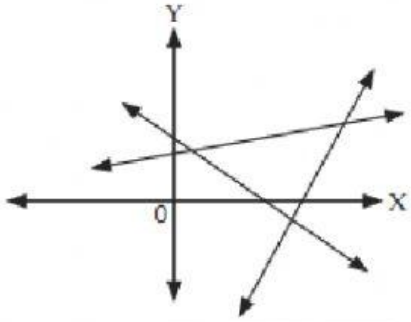 มีคำตอบหรือไม่ จำนวนคำตอบ

<u>ตอนที่ 2</u> จากรูปทั่วไปของกราฟเส้นตรง คือ $Ax + By + C = 0$ จงบอกค่า A , B , C จากสมการที่กำหนดให้

		A	B	C
1)	$x + 3y + 1 = 0$			
2)	$-x + y = 0$			
3)	$-3x - 4y - 6 = 0$			
4)	$5x + 6 = 0$			
5)	$3x - 5y + 4 = 0$			

LIVEWORKSHEETS