Soal Latihan

Setelah memahami materi. Silahkan isi pertanyaan berikut :

SOAL PILIHAN GANDA

Pilihlah jawaban yang paling benar dengan cara menekan jawaban yang paling benar !

Berikut ini yang termasuk sifat kubus adalah....

A. Memiliki 5 titik sudut

C. Memiiliki 6 sisi yang bentuknya sama

B. Sisinya berbentuk jajar genjang

D. Memiiliki bentuk alas segitiga

SOAL ISIAN SINGKAT

Isilah pertanyaan berikut dengan menulis jawaban pada kolom yang disediakan

Isilah Unsur - Unsur Kubus dibawah ini dengan benar

1. Banyak Rusuk Kubus adalah
2. Banyak Sisi Kubus adalah
3. Banyak Titik Sudut Kubus adalah

LIVEWORKSHEETS

Soal Latihan

Pasangkan jaring-jaring dibawah ini dengan benar. Silahkan tarik garis dari kanan ke kiri pada lingkaran biru sehingga menjadi jawaban yang benar.

SOAL JOIN ARROW



BALOK

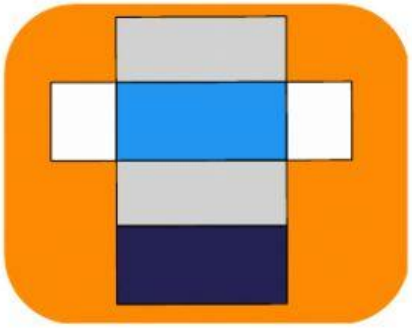

KUBUS



LIMAS SEGITIGA

LIVEWORKSHEETS

Soal Latihan

Geser dan pindahkan rumus pada tempat yang sesuai. Dengan cara mendrag kotak orange ke tempat yang benar.

SOAL DRAG N DROP

1/3 x L.alas x Tinggi	Volume Prisma
2 (pl + pt + lt)	L.Permukaan Kubus
6 x s x s	L.Permukaan Prisma
2 x L.alas + (Keliling alas x tinggi)	Volume Prisma
L.alas x tinggi	L.Permukaan Balok

LIVEWORKSHEETS

Soal Latihan

Carilah kata berikut : Limas, Rusuk, Titik sudut, Sisi, Prisma, Kubus, Balok

SOAL WORD SEARCH

B	A	L	O	K	I	B	H	C	R	L
E	A	N	Q	I	B	U	E	Y	O	I
A	N	I	M	T	L	S	L	A	L	M
L	I	O	R	I	S	A	L	N	H	A
R	U	P	U	K	U	B	U	S	A	S
Y	A	R	S	S	O	A	R	M	E	H
A	L	I	H	U	L	L	O	A	A	E
R	S	S	A	D	I	M	A	L	S	L
A	R	M	I	U	A	I	L	S	M	L
H	E	A	L	T	R	S	I	S	I	O

LIVEWORKSHEETS