Діагностувальна робота №6

1. **Запиши у віконця "сусідів" поданих чисел.**

	400			100	

2. Обчисли вирази та виконай перевірку.
Дізнайся корисну інформацію – довжину річок на території України.

ДНІСТЕР

$$\begin{array}{r} 322 \\ +\ 383 \\ \hline \end{array}$$

_ _ _ _ км

Перевірка

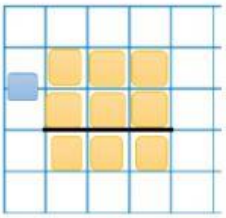

ЗАХІДНИЙ БУГ

$$\begin{array}{r} 913 \\ -\ 521 \\ \hline \end{array}$$

_ _ _ _ км

Перевірка

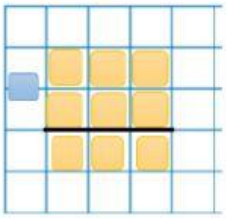

ПРИП'ЯТЬ

$$\begin{array}{r} 490 \\ -\ 229 \\ \hline \end{array}$$

_ _ _ _ км

Перевірка

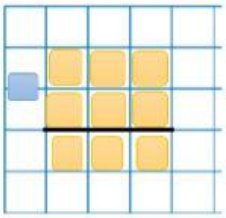

ДНІПРО

$$\begin{array}{r} 432 \\ +\ 549 \\ \hline \end{array}$$

_ _ _ _ км

Перевірка

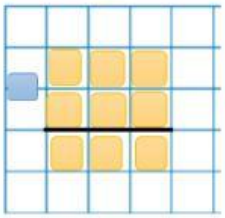

3. Розглянь, які купюри зібрав Олег у скарбничці. Визнач, скільки всього грошей у скарбничці.

LIVEWORKSHEETS

4. Розв’яжи задачу.

Альбом і фарби коштують разом 270 грн, олівці і фарби коштують 261 грн. Визнач ціну альбому, коробки фарб і набору олівців, якщо за всю покупку заплатили 386 грн.

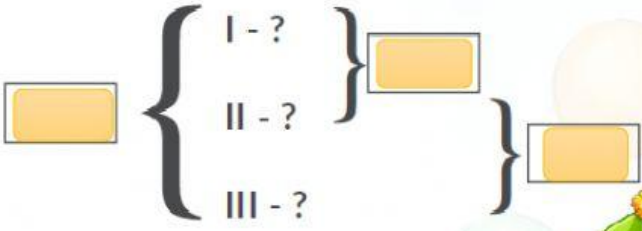

РОЗВ'ЯЗАННЯ

Відповідь:

5. Відстань між якими містами найбільша? Познач V правильну, на твою думку, відповідь.

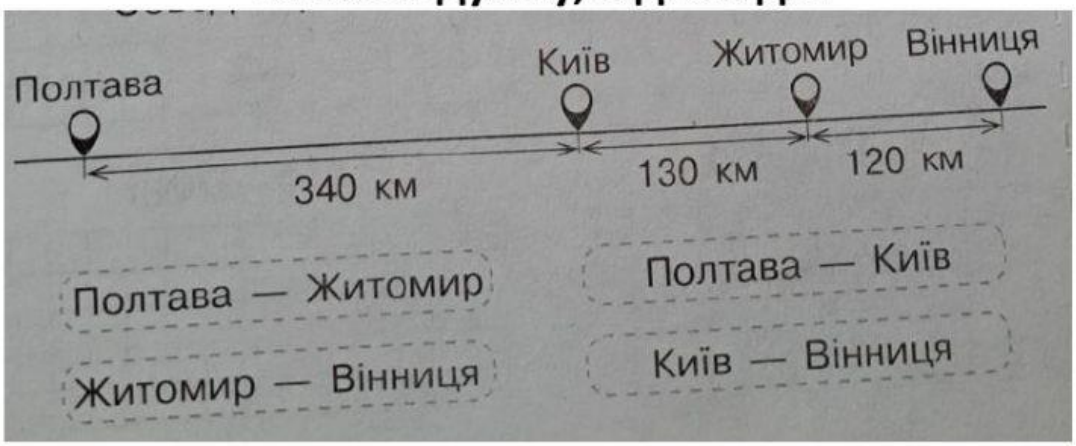

Оціни себе. Ці завдання були для мене

ДУЖЕ ЛЕГКИМИ!

ЛЕГКИМИ!

СКЛАДНИМИ!

LIVEWORKSHEETS