EXERCICIS D'ÀREES I PERÍMETRES

Calcula el Perímetre i la Superfície d'aquesta figura.

a = 2

b = 3

- ○ Perímetre 5 i Superfície 6.
- ○ Perímetre 6 i Superfície 10.
- ○ Perímetre 10 i Superfície 6.

Marca l'opció correcta de l'àrea de la següent figura:

☐ cada costats mesura 1 m.

m²

○ 60 ○ 120 ○ 16

LIVEWORKSHEETS

Marca l'opció correcta de l'àrea de la següent figura:



m²

○ 1000 ○ 100 ○ 80

Quin és el perímetre d'aquest triangle?

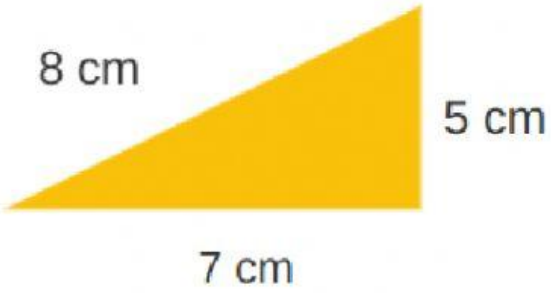

El el perímetre és de ____ cm

LIVEWORKSHEETS

Quin n'és el perímetre?

El perímetre és de ☐ cm

He comprat una parcel·la rectangular de 35 metres de llarg i 10 d'ample. Quants metres quadrats mesura la sevaàrea?

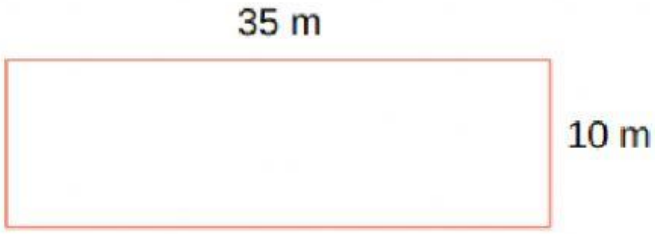

La parcel·la mesura ☐ m^2

LIVEWORKSHEETS

Calcula els valors demanats d'aquesta circumferència

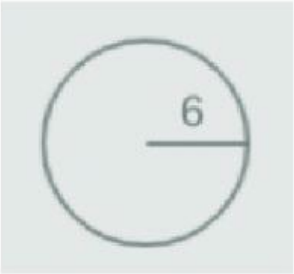

Radi= cm
Diàmetre= cm
Longitud= cm

Calcula els valors demanats d'aquesta circumferència

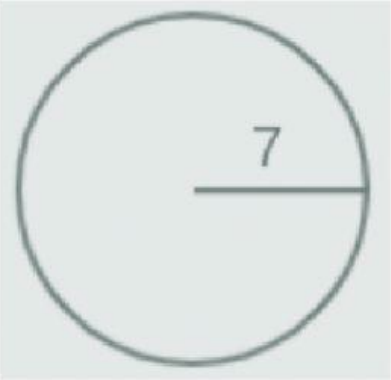

Radi= cm
Diàmetre= cm
Longitud= cm

LIVEWORKSHEETS

Calcula el perímetre d'aquesta figura

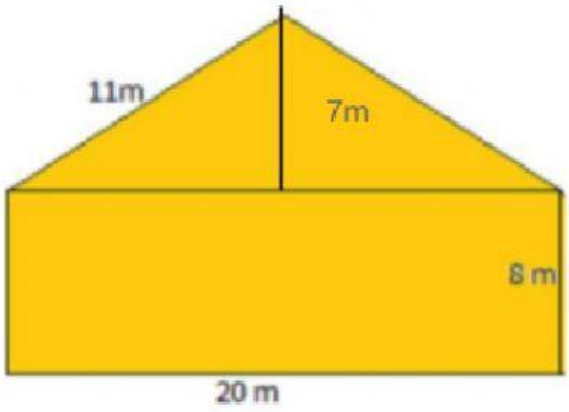

Perímetre=
Àrea =

Calcula l'àrea d'aquesta figura

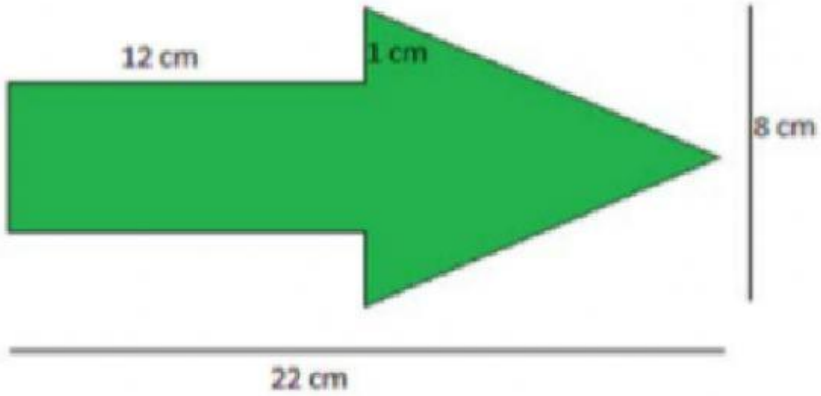

Àrea =

LIVEWORKSHEETS