Vardas _____ **Klasė** _____ **Data**_____

1. **Apskaičiuok trikampio perimetrą.**

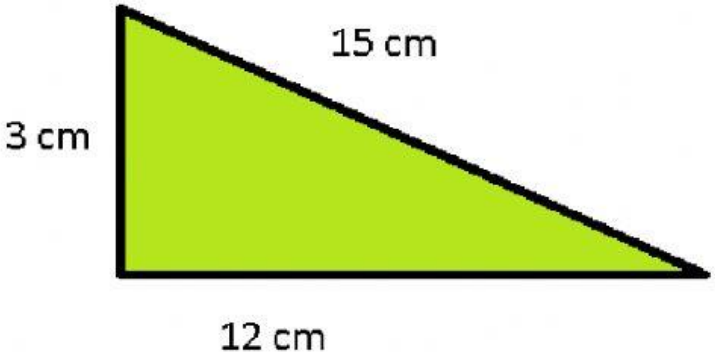

Ats.: _____ **cm**

2. **Apskaičiuok stačiakampio perimetrą.**

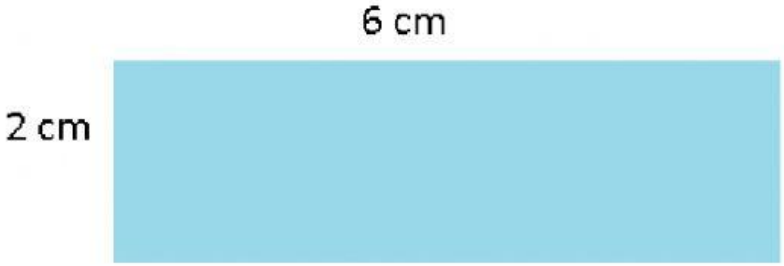

Ats.: _____ **cm**

3. **Apskaičiuok kvadrato perimetrą.**

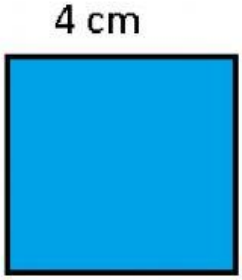

Ats.: _____ **cm**

LIVEWORKSHEETS

4. **Kvadrato perimetras yra 36 cm. Kokio ilgio yra šio kvadrato kraštinė?**

Ats.: _____ cm

5. **Stačiakampio plotis yra 10 cm, o perimetras 60 cm. Koks yra stačiakampio ilgis?**

Ats.: _____ cm

6.

Smėlio dėžės visos kraštinės yra vienodo ilgio. Apskaičiuok jos perimetrą.

Ats.: _____ cm

LIVEWORKSHEETS