1.RÍOS DE EUROPA

Coloca el nombre correspondiente en cada número o letra.

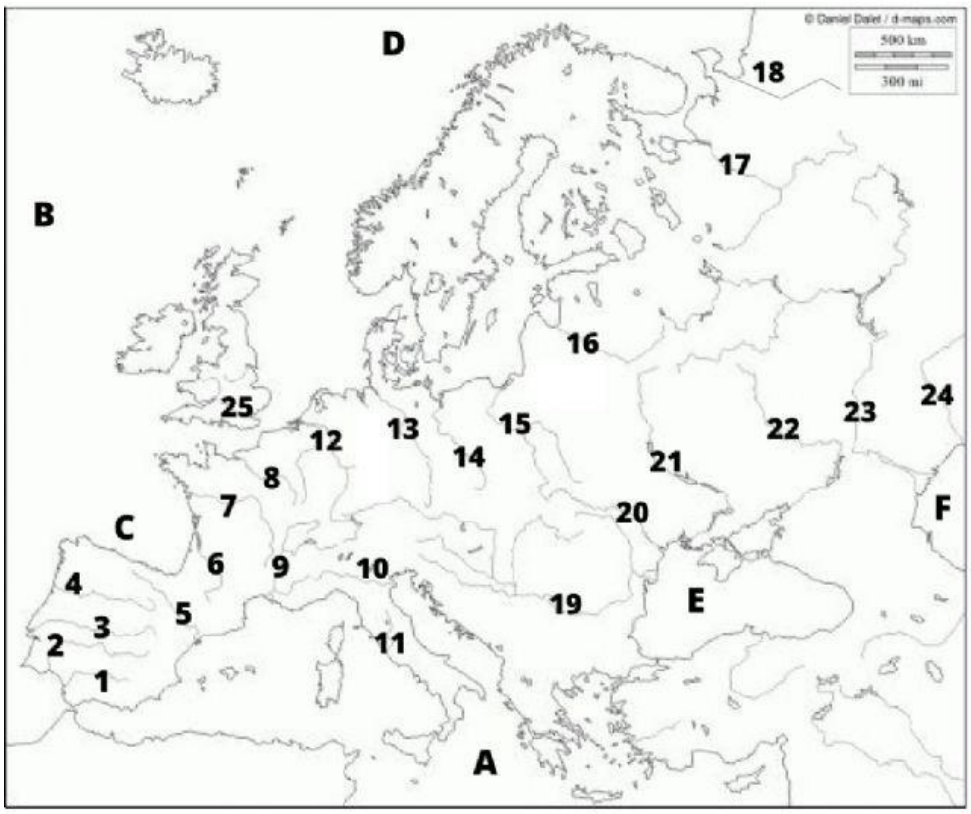

Mares y océanos

A: .....
B:.....
C:.....
D: .....
F:.....
E:.....

Ríos europeos

1: .....
2: .....
3: .....
4: .....
5: .....
6: .....
7: .....
8: .....
9: .....
10: .....
11: .....
12: .....
13:.....
14: .....
15: .....
16: .....
17: .....
18: .....
19: .....
20: .....
21: .....
22: .....
23: .....
24: .....
25: .....

LIVEWORKSHEETS

2. Completa y coloca los ríos en la vertiente correspondiente

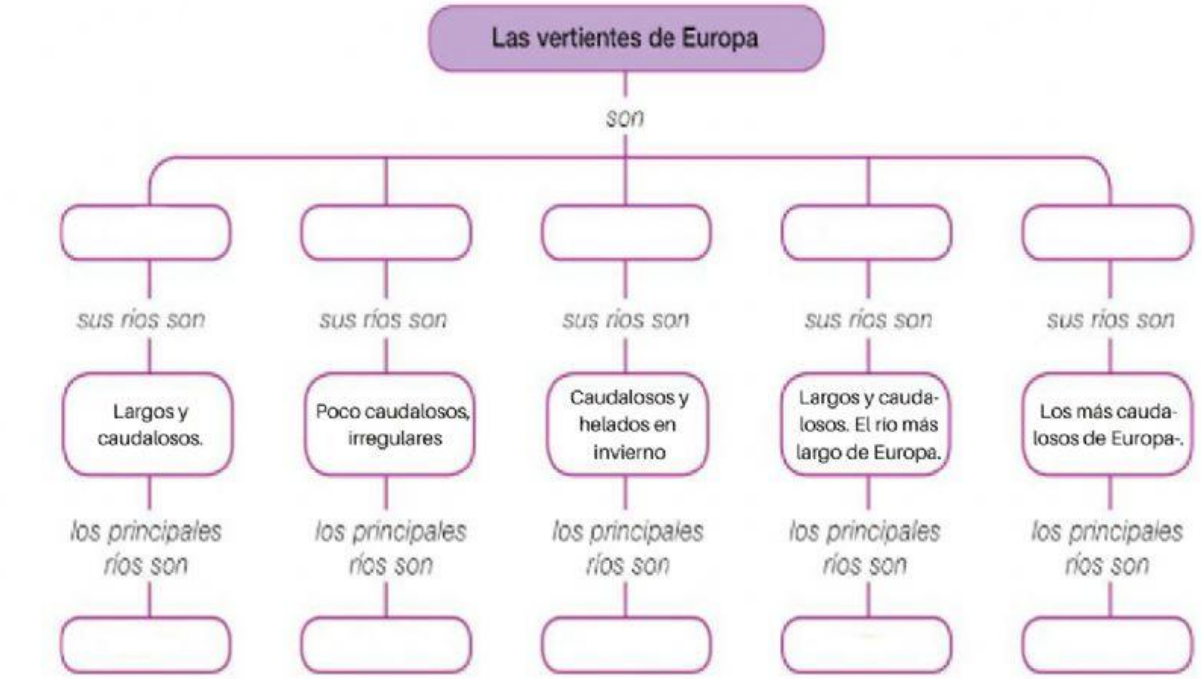

El Volga y el Ural

Danubio, Dniester Dnieper, Don

Dvina, Vístula Oder, Rin, Tajo

Ebro, Ródano, Po, Tíber

Pechora, Dvina septentrional.

LIVEWORKSHEETS

3. Nombra el clima europeo que pertenece a cada color en el mapa

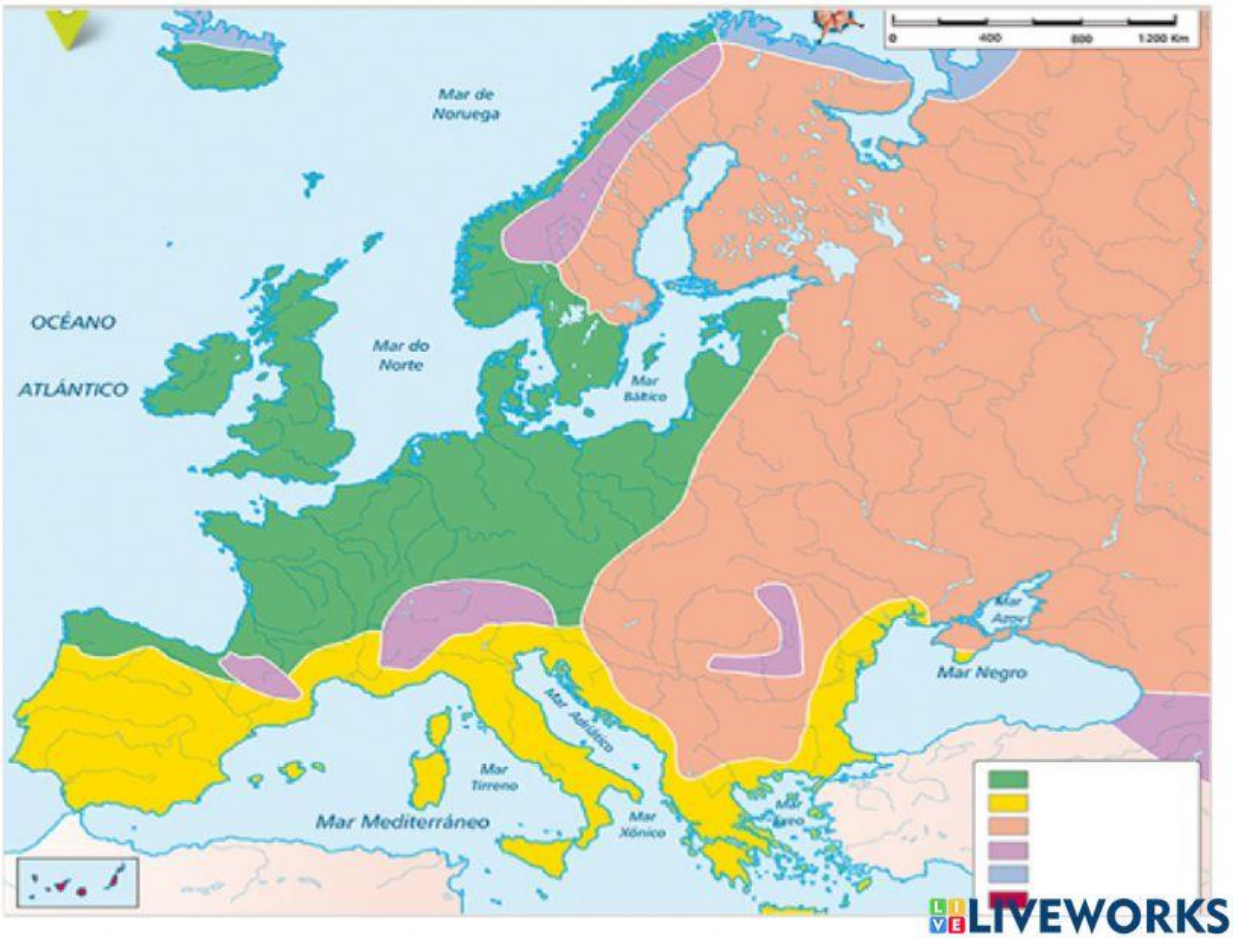

LIVEWORKSHEETS

CLIMAS EUROPA ¿Qué clima es cada uno?

CLIMAS	TEMPERATURAS	PRECIPITACIONES	VEGETACIÓN	ZONA
	Por debajo de 0° durante el año.	Escasas	Casi no hay vegetación.	Norte de los países nórdicos y .....
	Veranos suaves	Abundantes y regulares	Bosques de hayas y robles, prados. Landas.	Zonas bañadas por el Océano ..... y centro de Europa
	Altas en verano, muy bajas en invierno.	Se concentran en el verano.	Bosques de abetos y pinos (taigas) y estepas.	Zonas del ..... de Europa
	Elevadas en verano, suaves en invierno.	No son abundantes	Bosques de encinas, alcornoques. Matorrales.	Propio de la costa ..... y zonas del interior al Sur
	Suaves durante todo el año.	Frecuentes al norte, escasas al sur.	Plantas endémicas, como laurisilva, tabaiba, cardón...	Propio de las Islas .....
	Muy bajas en invierno, frescas en verano.	Abundantes	Líquenes, arbustos	Característico de las zonas más elevadas

LIVEWORKSHEETS