1. Manakah yang tidak sesuai?

A. B. C. D.

2. Manakah yang tidak sesuai?

A. B. C. D.

3. Carilah 2 perbedaan dari gambar di bawah.

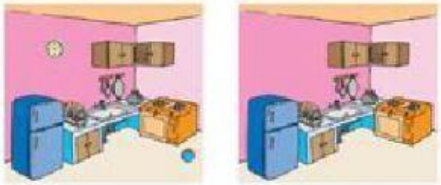

Benda apa yang berbeda?

1) _____

2) _____

4. Pilihlah pasangan yang tidak sesuai!

A. KUDA – EMPAT C. AYAM – DUA

B. KUCING – EMPAT D. LIPAN – EMPAT

5. Manakah gambar yang tidak sesuai?

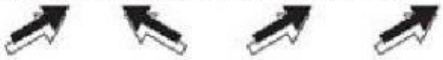

A. B. C. D.

6. Manakah gambar yang tidak sesuai?

A. B. C. D.

7. Berapakah banyaknya kotak?

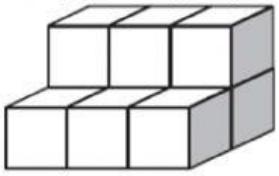

A. 7
B. 8
C. 9
D. 10

8. Rafi membeli 2 kg cat. Cat tersebut akan dimasukkan ke dalam kantong yang berisi masing-masing 100 gram. Berapakah banyaknya kantong yang diperlukan?

A. 5 kantong C. 15 kantong

B. 10 kantong D. 20 kantong

9. Anton berpergian dari kota A menuju kota B dengan kecepatan 30 km/jam. Jarak kota A dan B adalah 30 km. Jika Anton berangkat pada pukul 09.00, jam berapakah ia samapai di kota B?

A. 09.30 C. 10.30

B. 10.00 D. 11.00

10. Berapakah banyaknya sisi dari bangun di bawah?

A. 3 C. 5

B. 4 D. 6

LIVEWORKSHEETS