تدريبات المهارات متوازي الأضلاع

استعمال خصائص متوازي الاضلاع

أوجد كلا من قيمتي y , x في كل من متوازيات الاضلاع الآتية :

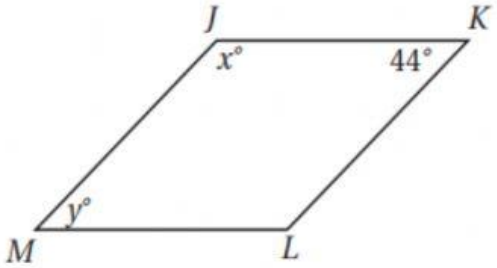

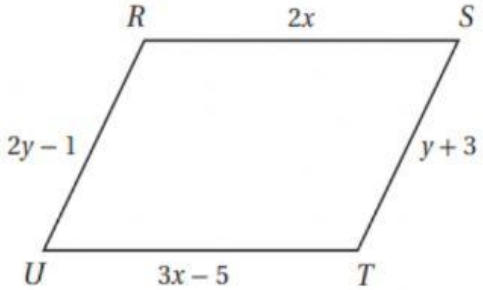

x= .....
y= .....

x= .....
y= .....

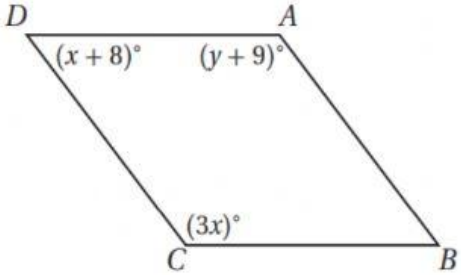

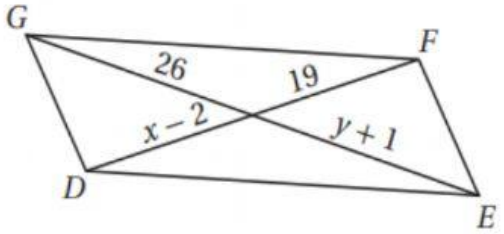

x= .....
y= .....

x= .....
y= .....

متوازي الاضلاع والهندسة الإحداثية

أختر إحداثيي نقطة تقاطع قطري HJKL ▱ الذي أعطيت إحداثيات رؤوسه

$H(-1,4)$ $J(3,3)$ $K(3,-2)$ $L(-1,-1)$

(1 , 1) (2 , 5) (0 , 4) (8 , 1)

أسم الطالبة : الشعبة :

LIVEWORKSHEETS