Menganalisis dinamika litosfer dan dampaknya terhadap kehidupan

Materi Tektonisme

Nama :

Kelas :

No. Abs :

A. BERILAH KETERANGAN PADA PROSES EPIROGENESA BERIKUT INI!

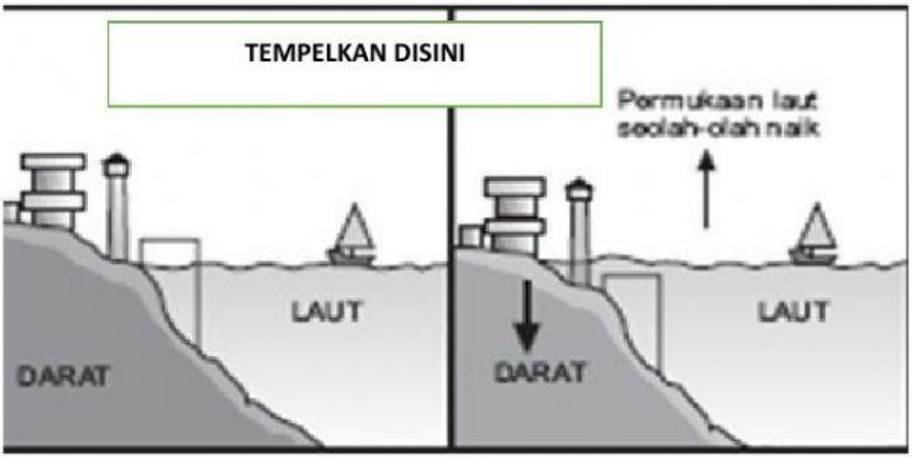

EPIROGENESA POSITIF

EPIROGENESA NEGATIF

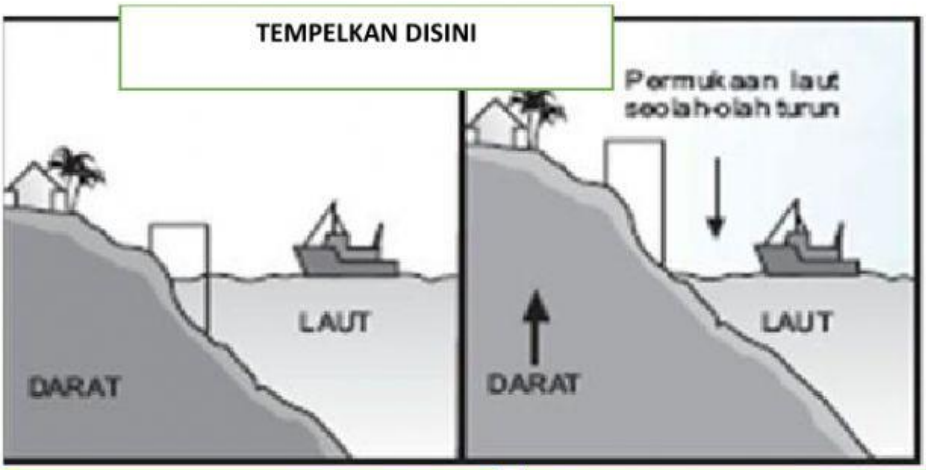

EPIROGENESA POSITIF

EPIROGENESA NEGATIF

LIVEWORKSHEETS

B. **BERIKAN ANALISIS KETERANGAN DARI GERAKA TEKTONIK DENGAN MEMBERIKAN CHECK LIST!**

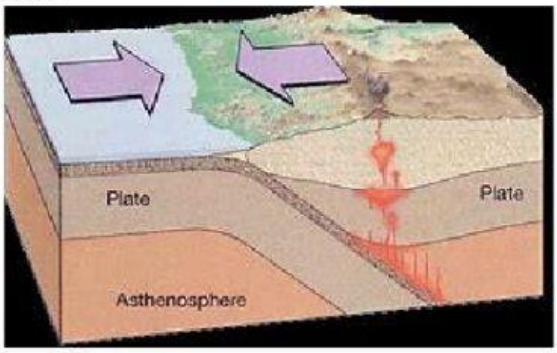

	GERAKAN KONVERGEN
	GERAKAN DIVERGEN
	GERAKAN TRANFORM FAULT
	MEMBENTUK SUBDUKSI
	MEMBENTUK PALUNG LAUT
	MEMBENTUK PEMATANG TENGAH SAMUDRA
	MEMBENTUK ZONA SESAR
	SESAR PALU KORO
	GERAKAN SEPERTI INI SEPERTI PERTEMUAN LEMPENG EURASIA DAN LEMPENG SAMUDRA HINDIA

LIVEWORKSHEETS

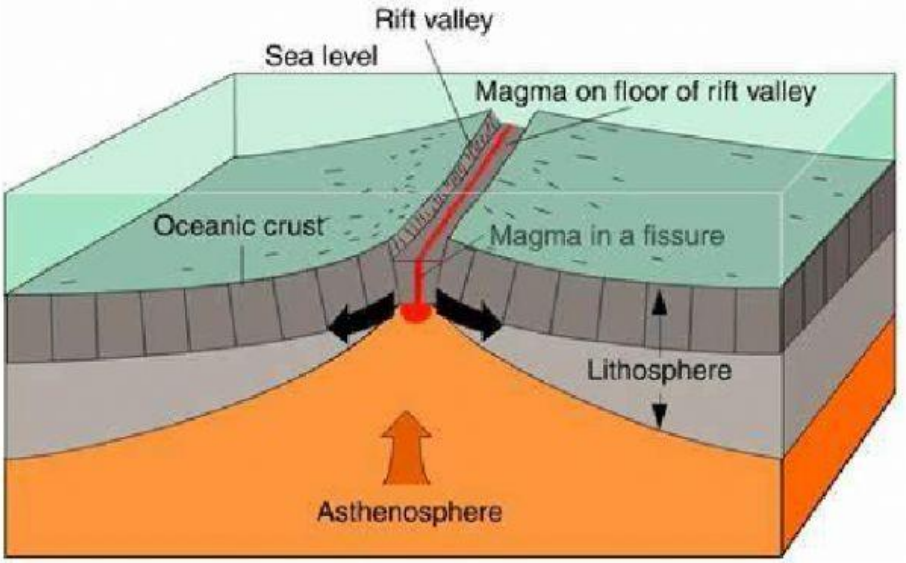

	GERAKAN KONVERGEN
	GERAKAN DIVERGEN
	GERAKAN TRANFORM FAULT
	MEMBENTUK SUBDUKSI
	MEMBENTUK PALUNG LAUT
	MEMBENTUK PEMATANG TENGAH SAMUDRA
	MEMBENTUK ZONA SESAR
	SESAR PALU KORO
	GERAKAN SEPERTI INI SEPERTI PERTEMUAN LEMPENG EURASIA DAN LEMPENG SAMUDRA HINDIA

LIVEWORKSHEETS

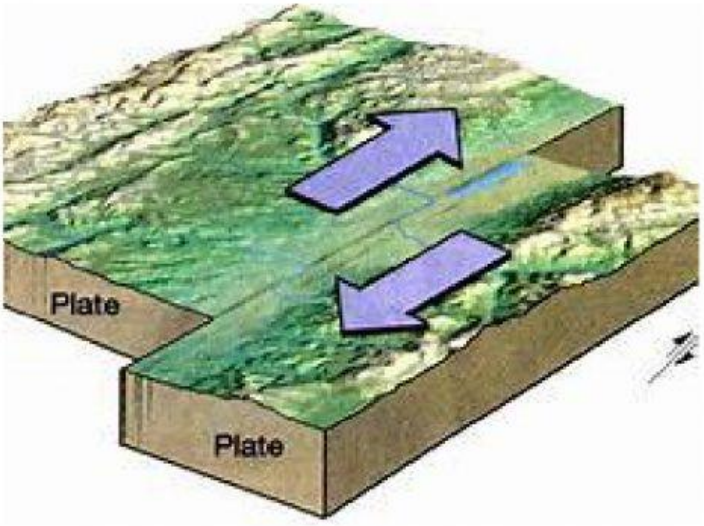

	GERAKAN KONVERGEN
	GERAKAN DIVERGEN
	GERAKAN TRANFORM FAULT
	MEMBENTUK SUBDUKSI
	MEMBENTUK PALUNG LAUT
	MEMBENTUK PEMATANG TENGAH SAMUDRA
	MEMBENTUK ZONA SESAR
	SESAR PALU KORO
	GERAKAN SEPERTI INI SEPERTI PERTEMUAN LEMPENG EURASIA DAN LEMPENG SAMUDRA HINDIA

LIVEWORKSHEETS

C. BERILAH KETERANGAN PERBEDAAN PERGERAKAN EPIROGENESA DAN OROGENESA!

EPIROGENESA	OROGENESA

WILAYAH LUAS	**WAKTU LAMA**
WILAYAH SEMPIT	**LEMBAH SUNGAI HUDSON AMERIKA SERIKAT**
WAKTU SINGKAT	**GEMPA PALU**

D. BERIKAN KETERANGAN PATAHAN DAN LIPATAN BERIKUT!

TARIK DAN TEMPELKAN

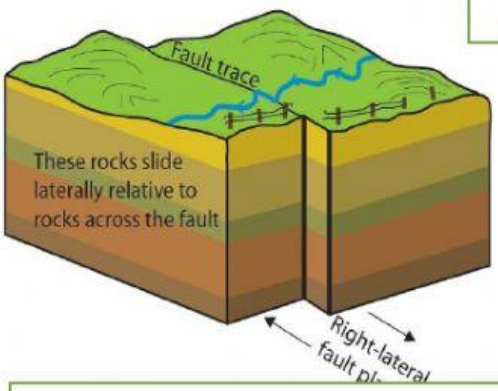

TEMPELKAN DISINI

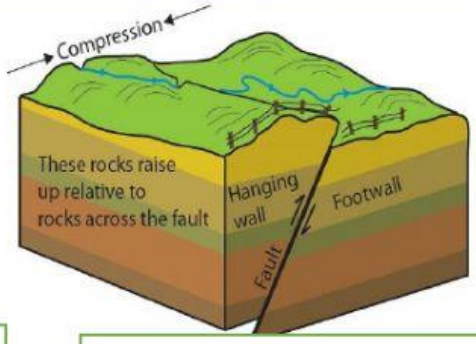

TEMPELKAN DISINI

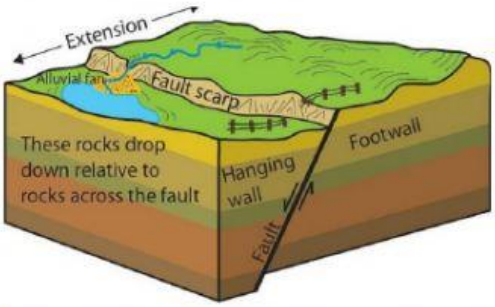

TEMPELKAN DISINI

SESAR TURUN

SESAR NAIK

SESAR MENDATAR

LIVEWORKSHEETS



TEMPELKAN DISINI

TEMPELKAN DISINI



TEMPELKAN DISINI

TEMPELKAN DISINI

TEMPELKAN DISINI

LIPATAN TEGAK

LIPATAN REBAH

LIPATAN MIRING

LIPATAN MENGGANTUNG

LIPATAN ISOKLINAL

TARIK DAN TEMPELKAN

LIVEWORKSHEETS