GEOMETRÍA

Escribe su nombre y número de lados

	NOMBRE	Nº LADOS
	.....	.....
	.....	.....
	.....	.....
	.....	.....
	.....	.....

Resuelve la sopa de letras

Con las palabras escritas en la actividad anterior

S	B	L	E	O	Q	T	W	C	Y	M	N
B	Y	C	U	A	D	R	A	D	O	Y	E
X	G	A	O	U	M	I	M	C	B	Ñ	O
C	V	R	E	C	T	Á	N	G	U	L	O
X	R	R	E	S	P	N	Q	P	C	T	K
Z	R	H	E	X	Á	G	O	N	O	M	S
K	O	P	S	R	T	U	P	X	M	Q	A
B	T	C	I	D	F	L	I	I	S	I	E
P	E	N	T	Á	G	O	N	O	Q	B	M

Relaciona

Línea recta

Línea poligonal cerrada

Línea curva abierta

Línea curva

Línea poligonal abierta

Línea curva cerrada

Escribe con qué tipo de línea relacionas estas imágenes.

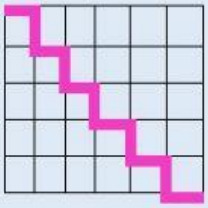

....

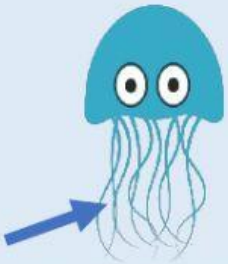

....

Elige el nombre correcto de cada cuerpo geométrico.

.....

.....

.....



.....

.....

.....

Coloca en su lugar

Cuerpos redondos	Poliedros