SITUACIÓN DE APRENDIZAJE 5 -MATEMÁTICAS

1. Completa la tabla

	6	4	3	5	8	7	9
× 4							
× 6							
× 5							
× 7							
× 8							
× 2							

- **Calcula el doble y el triple de los siguientes números:**

	Doble	Triple
	× 2	× 3
6		
8		
10		
2		

	Doble	Triple
	× 2	× 3
5		
7		
9		
3		

LIVEWORKSHEETS

- En el huerto hay 6 macetas . En cada una de ellas hemos plantado 27 flores de primavera. ¿Cuántas flores de primavera hemos plantado en total?

Datos:	Operaciones:
En el huerto hay ☐ macetas. Hemos plantado ☐ flores.	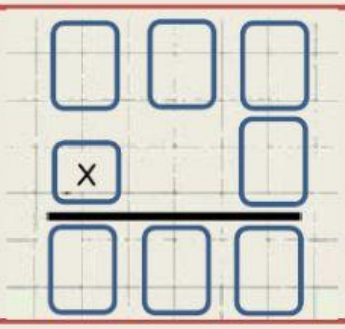
Hemos plantado ☐ flores de primavera en total.	

2. Observa los precios y calcula cuánto cuesta.



4 peluches	3 Barbie	7 legos	2 Playmobil	6 muñecas
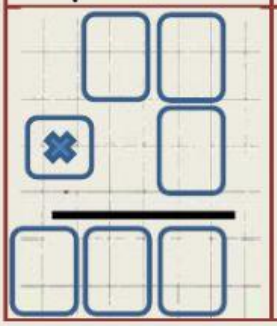	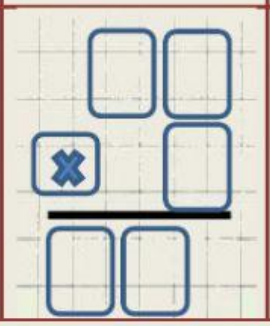		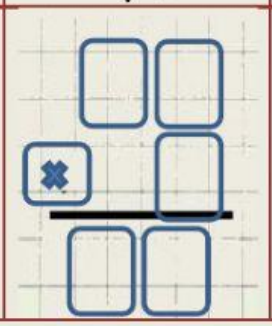	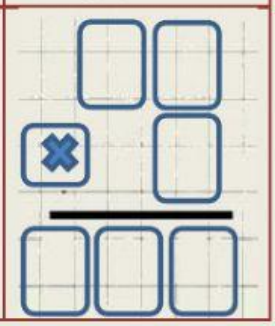

LIVEWORKSHEETS