Trường Tiểu học Hiến Nam

Họ và tên: .....

Cô: Thủy Lê

TUẦN 19

Kiến thức trọng tâm

- Phép nhân.
- Thừa số – Tích.
- Bảng nhân 2.

Bài 1. Nhìn tranh, viết phép nhân thích hợp:

	.....
	 .....
.....	 .....
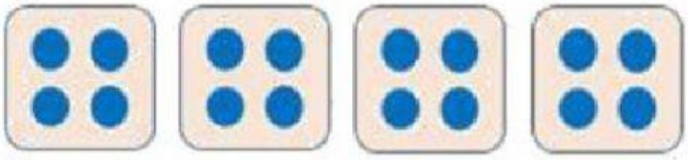	 .....

LIVEWORKSHEETS

Bài 2: Chọn câu trả lời đúng:

1. Dãy tính: 2 + 2 + 2 + 2 + 2 + 2 tương ứng với phép nhân nào?

A. 2 x 5 B. 5 x 2 C. 2 x 6 D. 6 x 2

2. 6 được lấy 4 lần viết dưới dạng tích hai số là gì?

A. 4 x 6 B. 6 x 4 C. 6 + 4 D. 6 + 6 + 6 + 6

3. Tích của hai thừa số 7 và 3 là bao nhiêu?

A. 21 B. 10 C. 4 D. 73

4. Minh lấy 5 đôi đũa cho cả nhà. Hỏi Minh đã lấy bao nhiêu chiếc đũa?

A. 5 chiếc B. 10 đôi C. 10 chiếc D. 7 chiếc

5. Trong phép nhân: 5 x 2 = 10 , thừa số là gì ?

A. 5 và 10 B. 10 và 2 C. 10 D. 5 và 2

6. Phép nhân: 4 x 8 = 32 có tích là số nào ?

A. 4 B. 8 C. 4 và 8 D. 32

7. Phép nhân nào dưới đây có tích bằng 15?

A. Phép nhân có thừa số là 6 và 3.

B. Phép nhân có các thừa số là 3 và 5.

C. Phép nhân có các thừa số là 1 và 5.

D. Phép nhân có các thừa số là 10 và 5.

8. Trong chuồng có 5 con lợn. Hỏi có bao nhiêu chân lợn?
Đáp số của bài toán là:

A. 4 chân B. 10 chân C. 24 chân D. 20 chân

9. 2 được lấy 5 lần, ta có phép tính:

A. 2 x 5 B. 5 x 2 C. 5 + 2 D. 5 - 2

10. Có 5 giỏ, mỗi giỏ đựng 4 quả táo. Hỏi 5 giỏ đựng bao nhiêu quả táo? Phép tính đúng để tìm số quả táo là:

A. 4 + 4 + 4 + 4 B. 5 x 4 C. 4 x 5 D. 5 + 5 + 5 + 5

LIVEWORKSHEETS

Bài 3: Nối tích với tổng các số hạng bằng nhau tương ứng.

6 + 6 + 6 + 6 + 6	5 + 5 + 5	6 + 6 + 6

5 x 3 | 3 x 5 | 6 x 3 | 5 x 6 | 6 x 5 | 3 x 6

3+3+3+3+3+3	3 + 3 + 3 + 3 + 3	5+5+5+5+5+5

Bài 4: Chuyển tích thành tổng các số hạng bằng nhau rồi tính:

3 x 6 = ...

7 x 2 = ...

9 x 3 = ...

12 x 4 = ...

15 kg x 3 = ...

Bài 5: Số ?

Thừa số	5	8	6	3	7	10
Thừa số	3	4	3	5	2	6
Tích						

Bài 6: Không thực hiện phép tính để tìm kết quả, hãy điền dấu thích hợp vào chỗ chấm.

4 + 4 + 4 + 4 ..... 4 x 3

6 + 6 + 6 + 6 ..... 6 x 4

7 + 7 + 7 + 7 + 7 ..... 7 x 7

5 kg + 5 kg ..... 5 kg x 3

a + a + a + a + a ..... a x 5

5 + 5 ..... 5 x 3

8 + 8 + 8 ..... 8 x 2

2 + 2 + 2 + 2 + 2 ..... 2 x 5

3 cm + 3 cm ..... 3 cm x 3

a + a + a + a + 1 ..... a x 4

LIVEWORKSHEETS

Bài 7: Tính:

a) Có ba lọ hoa, mỗi lọ có 5 bông hoa. Có tất cả bao nhiêu bông hoa?

- Phép tính đúng là:

b) Một đôi đũa có 2 chiếc đũa. Hỏi 10 đôi đũa có bao nhiêu chiếc đũa?

- Phép tính đúng là:

c) Mỗi con gà có 2 cái chân, Hỏi 8 con gà có bao nhiêu cái chân?

- Phép tính đúng là:

d) Bà có một số cái kẹo đủ chia cho 7 cháu, mỗi cháu 2 cái kẹo. Hỏi bà có bao nhiêu cái kẹo?

- Phép tính đúng là:

e) Một bàn học có 2 học sinh ngồi. Hỏi 10 bàn học như thế có tất cả bao nhiêu học sinh ngồi?

- Phép tính đúng là:

Bài 8: Điền số?



- Tích của 2 với số lớn nhất có một chữ số là: .....

LIVEWORKSHEETS