1. **Koks skaičius paslėptas už obuolio?** *1 taškas*

4 · = 28

Atsakymas: .....

2. **Garsas sklinda 331 m/s greičiu. Kokiu atstumu plykstelėjo žaibas, jei griaustinį išgirdome tik po 16 s?** *1 taškas*

Užrašyk sprendimą:

Atsakymas: ..... metrų.



3. **Kokį geometrinį kūną primena kvepalų dėžutė?** *1 taškas*

Atsakymas: .....

4. **Kuris reiškinys tinka margučiams suskaičiuoti?** *1 taškas*



A 3 + 2 **B** 2 · 2 · 2 **C** 3 · 2 **D** 3 + 3 + 3

5. **Apskaičiuok:** *4 taškai*

a) 237 + 149 = ☐

b) 8000 − 423 = ☐

c) 30 × 70 = ☐

d) 588 ⌊7

LIVEWORKSHEETS

6. **Kurio reiškinio reikšmė lygi 32?** *1 taškas*

A $2 + 3 \cdot 4 + 15$

B $3 \cdot 6 + 2 \cdot 5$

C $(16 - 8) \cdot 4$

D $6 \cdot (4 + 3)$

7. **Baik simetriškai piešti kitą piešinio pusę.** *1 taškas*



8. **Pažiūrėk į kalendorių ir atsakyk, kuri savaitės diena bus kovo 11.** *1 taškas*

Kovas					
Pr		4	11	18	25
A		5	12	19	26
T		6	13	20	27
K		7	14	21	28
P	1	8	15	22	29
Š	2	9	16	23	30
S	3	10	17	24	31

Atsakymas: .....

9. **Kiek kubelių sudaro statinį?** *1 taškas*

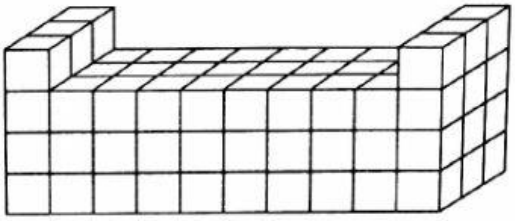

Atsakymas: ..... kubelių.

10. **Kuris kampas yra smailusis?** *1 taškas*

A Smailusis kampas *A*.

B Smailusis kampas *B*.

C Smailusis kampas *C*.

D Smailusis kampas *D*.



11. **Susmulkink.** *1 taškas*

30 kg 26 g = ... g

LIVEWORKSHEETS

12. **Kuris laikrodis rodo 6:25?** *1 taškas*



A B C D

13. **Paveiksle pavaizduota, kaip keitėsi oro temperatūra per savaitę.**

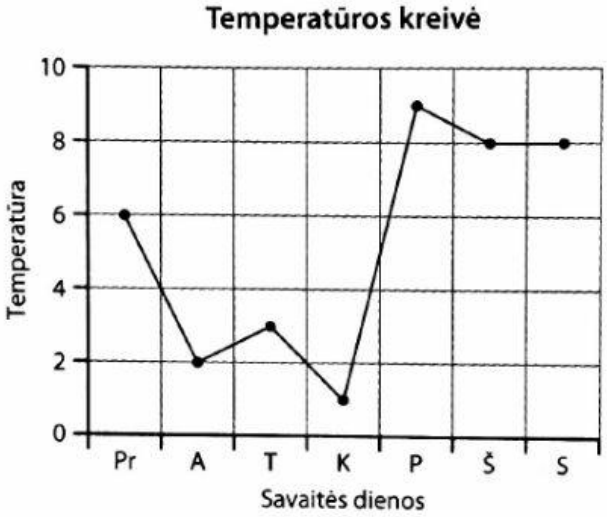

a) Kurią savaitės dieną buvo žemiausia temperatūra? *1 taškas*

Atsakymas: .....

b) Kurią savaitės dieną buvo aukščiausia temperatūra? *1 taškas*

Atsakymas: .....

14. **Bibliotekininkė 83 knygas sudėjo po lygiai į 9 lentynas. Kiek knygų liko nesudėtų į lentynas?** *1 taškas*

Atsakymas: ..... knygos.





LIVEWORKSHEETS

15. **Darius turėjo susitaupęs pinigų:** *2 taškai*

Už pusę pinigų jis pirko konstruktorių, o už 1 eurą – balionų.
Ar užteks pinigų picai, kuri kainuoja 4 eurus, nusipirkti?
Užrašyk sprendimą:

Atsakymas: .....

16. **Ką galima išmatuoti kilogramais?** *1 taškas*

A Liniuotės ilgį. **B** Lango plotą. **C** Žmogaus masę. **D** Stiklainio talpą.

17. **Marius sugalvojo skaičių, sumažino jį 217 vienetų ir gavo 525. Kokį skaičių sugalvojo Marius?** *1 taškas*

Atsakymas: .....

18. **Kuri figūros dalis nuspalvinta?** *1 taškas*

A $\frac{3}{4}$ **B** $\frac{1}{4}$

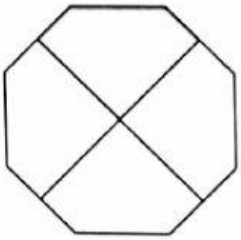

C $\frac{4}{3}$ **D** $\frac{4}{1}$

19. **Figūrų seka sudaryta pagal tam tikrą dėsningumą. Nupiešk trūkstamą figūrą, kad dėsningumas būtų išsaugotas.** *1 taškas*

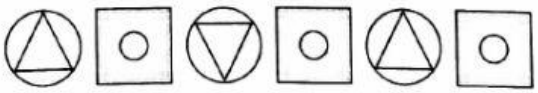

.....

LIVEWORKSHEETS

20. **Užrašyk nuspalvintais langeliais pavaizduotą skaičių.** *1 taškas*



Atsakymas: .....

21. **Apskaičiuok.** *1 taškas*

$$\begin{array}{r} \times\ \begin{array}{r} 3 \text{ Eur } 84 \text{ ct} \\ 3 \end{array} \\ \hline \boxed{} \end{array}$$

22. **Mama ir du vaikai, kuriems 12 ir 9 metai, planuoja eiti į vandens parką. Remdamasis bilietų kainų lentele, atsakyk į klausimus.**

Valandos / Kainos	3 h	4 h	Visa diena
Suaugęs	18,83 Eur	20,27 Eur	18,83 Eur
Vaikas (6–17 metų)	13,03 Eur	14,48 Eur	15,93 Eur
Vaikas (3–5 metų)	7,24 Eur	8,69 Eur	10,14 Eur

a) Kiek kainuos bilietai, jei mama ir vaikai pramogaus 3 h? *1 taškas*

Atsakymas: ..... eurus.

b) Kiek kainuos bilietai, jei mama ir vaikai pramogaus 4 h? *1 taškas*

Atsakymas: ..... eurus.

c) Kiek brangiau jiems kainuos pramogauti 4 h nei 3 h? *1 taškas*

Atsakymas: ..... euro.

LIVEWORKSHEETS

23. **Kuris iš šių skaičių lygus $\frac{3}{10}$?** *1 taškas*

A 3,0 B 0,3 C 0,03 D 3,10

24. **Nuėjusi į parduotuvę, mama pamatė, kad vaikų mėgstamiems saldainiams taikoma nuolaida. Kiek pinigų sutaupė mama?** *1 taškas*



Atsakymas: .....

25. **Rūtos šeima atvyko į oro uostą 4 h 40 min. Pagal skrydžių lentelę nustatyk, kur skrido Rūta, jei iki skrydžio pradžios buvo likę 2 h 20 min.** *1 taškas*

Data	Laikas	Vyksta į	Skrydžio Nr.
2013 04 02	06:00	Maskva VKO, Rusija	UT 704
2013 04 02	06:30	Varšuva, Lenkija	LO 774
2013 04 02	06:40	Kopenhaga, Danija	SK 743
2013 04 02	06:55	Ryga, Latvija	BT 350
2013 04 02	07:00	Hurgada, Egiptas	LLC3205
2013 04 02	07:20	Talinas, Estija	OV 652
2013 04 02	10:50	Antalija, Turkija	FH 980

Atsakymas: .....

26. **Remdamasis pateiktais duomenimis, nustatyk Sauliaus ūgį.** *1 taškas*
Marius yra aukščiausias, Rokas – žemiausias, o Saulius 20 cm žemesnis už Marių.

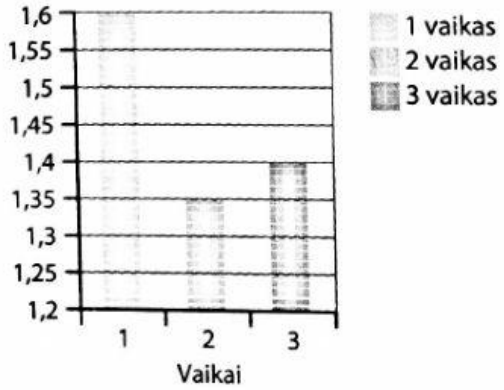

Atsakymas: .....

27. **Parašyk gretimus skaičius.** *1 taškas*

....., 2009, ...

LIVEWORKSHEETS

28. **Stačiakampio ilgis lygus 5 cm, plotis – 2 cm.**

a) Nubraižyk tokį stačiakampį. *1 taškas*



b) Apskaičiuok nubraižyto stačiakampio plotą. *1 taškas*

Atsakymas: .....

29. **Kuris iš šių paveikslėlių savo forma primena ritinį?** *1 taškas*



30. **Simo senelis atvyko iš Kryžkalnio į Kauną autobusu. Pažiūrėk į autobuso bilietą ir atsakyk į klausimus.**

a) Kiek Simo seneliui kainavo kelionė į vieną pusę? *1 taškas*

Atsakymas: .....

b) Kokia nuolaida jam buvo pritaikyta? *1 taškas*

Atsakymas: .....

c) Kiek kainavo kelionė pirmyn ir atgal? *1 taškas*

Atsakymas: .....

Galima surinkti 40 taškų. SURINKAI .....

2 TESTO ĮVERTINIMAS

Taškų skaičius	Surinko taškų	Pasiekimų lygis
40		

KOMENTARAS

LIVEWORKSHEETS