Ficha interactiva Matemáticas

KILO, MEDIO KILO Y CUARTO DE KILO

El **kilogramo** es la unidad principal que utilizamos para saber cuánto pesa un objeto.

También se llama **kilo**. Se escribe **kg**.

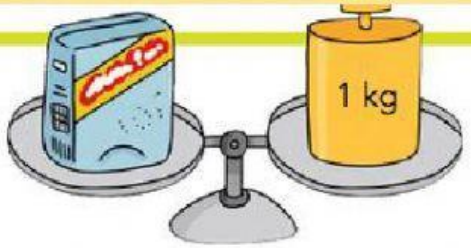

1 kilo = 2 medios kilos

1 kilo = 4 cuartos de kilo

1) ¿Cuánto pesan estas frutas? Completa con MÁS o MENOS.



Pesa _____ de un kilo.



Pesa _____ de un kilo.

2) ¿Cuántos CUARTOS DE KILO hay en MEDIO KILO?

- [ ] 1 cuarto de kilo
- [ ] 2 cuartos de kilo
- [ ] 4 cuartos de kilo

3) ¿Cuánto pesa cada paquete? Elige.

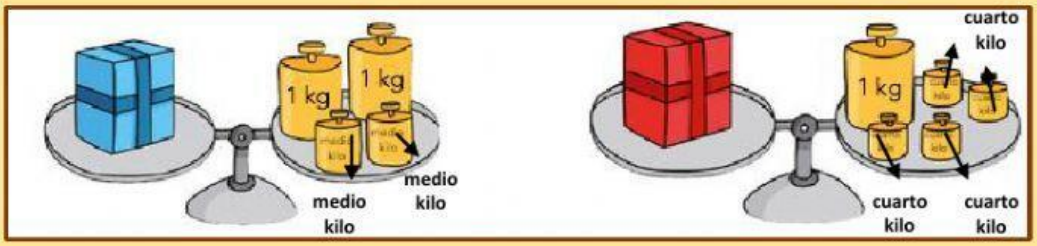

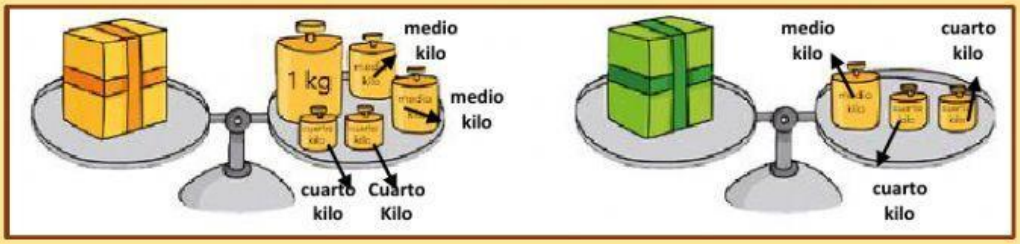

4) Escribe los números del 1 al 4 para ordenar los paquetes. Pon el número 1 al que PESA MENOS.

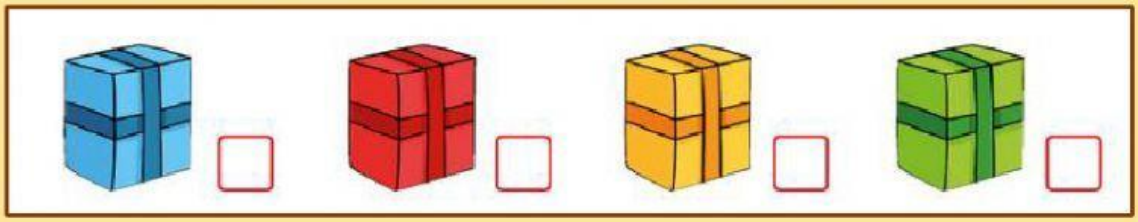

5) ¿Cuánto FALTA para que haya 3 KILOS? Elige.

- [ ] un kilo
- [ ] medio kilo
- [ ] un cuarto de kilo

- [ ] un kilo
- [ ] medio kilo
- [ ] un cuarto de kilo