KINGDOM OF BAHRAIN
Ministry of Education
Alrawdah Primary Girls School

مملكة البحرين
وزارة التربية والتعليم
مدرسة الروضة الابتدائية للبنات

مراجعة الرياضيات الاشكال الهندسية ٢٠٢٢-٢٠٢٣م

السؤال الأول: أحوط الشيء الذي له شكل *المخروط*:



السؤال الثاني: أصل الكلمة المناسبة للصورة المناسب:

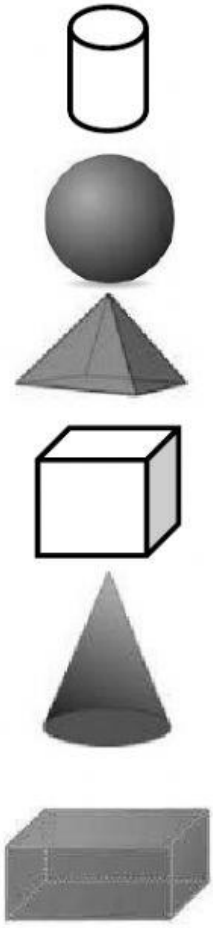

١- كرة

٢- مكعب

٣- مخروط

٤-أسطوانة

٥-متوازي مستطيلات

٦-هرم

LIVEWORKSHEETS

لسؤال الثالث: أعد الأوجه و الأحرف و الرؤوس في الأسطوانة:

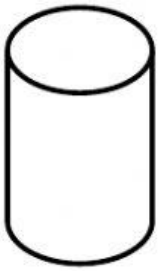

عدد الأوجه:.....

عدد الأحرف:.....

عدد الرؤوس:.....

الكفاية: يصف الأشكال الهندسية المستوية و يميزها ويقارنها.

السؤال الرابع: أكتب اسم الشكل المستوي التالي، ثم أكتب عدد الأضلاع و عدد الرؤوس فيه:

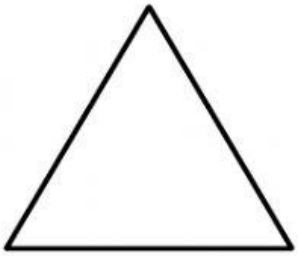

اسم الشكل المستوي: .....

عدد الأضلاع: ..... أضلاع

عدد الرؤوس: ..... رأس

LIVEWORKSHEETS