Repaso Tema4

1 ¿Dónde están?

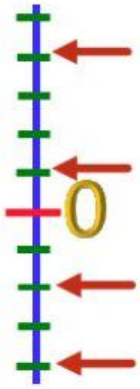

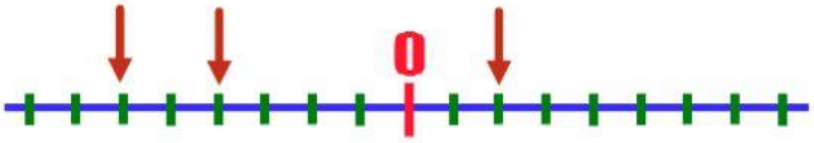

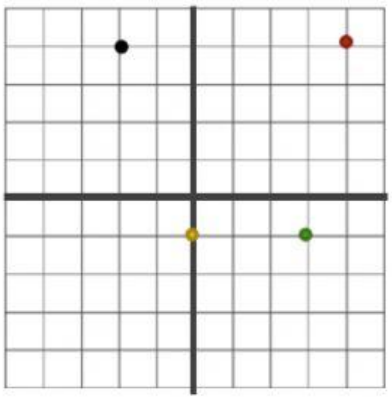

• ,

• ,

• ,

• ,

2 Ordena de menor a mayor

-1 +2 +6 -5 0 -3 -1,5 +7 +2 +2 -5 -5,6

< < < < < < < < < < <

3 Resuelve las operaciones con ayuda de la recta numérica

(+2) + (+7) =	(+2) - (+7) =	(+3) + (-5) =
(+3) + (-6) =	(+3) - (-6) =	(+5) - (-2) =
(-7) + (+4) =	(-7) - (+4) =	(-5) + (+9) =
(-5) + (-1) =	(-5) - (-1) =	(-3) - (-5) =
(+2) + (-7) =	(+2) - (-7) =	(+4) + (-9) =
(-3) + (+4) =	(-3) - (+4) =	(-6) - (+10) =

LIVEWORKSHEETS

Números enteros

4 Escribe los números en las rectas numéricas:

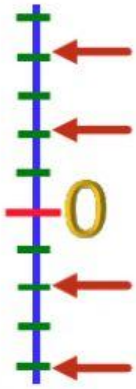

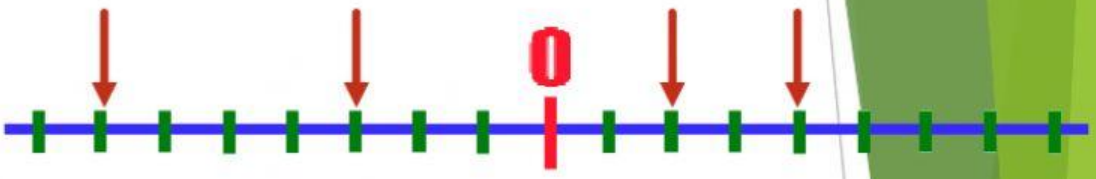

5 Escribe el número entero que representa cada situación

Un termómetro marca 2 grados bajo cero

Me he encontrado un billete de 20

Tenemos el coche aparcado en sótano 3

Julio César nació en el año 100 a.C.

6 Escribe > o < según corresponda

+3 +5	-1 -9	-4 +4	0 -3

7 Ordena de menor a mayor

-1 +6 0 -3 +7 -5

< < < < <

8 ¿En qué coordenada están? *Escribe las coordenadas como ésta: (+3,-5)*

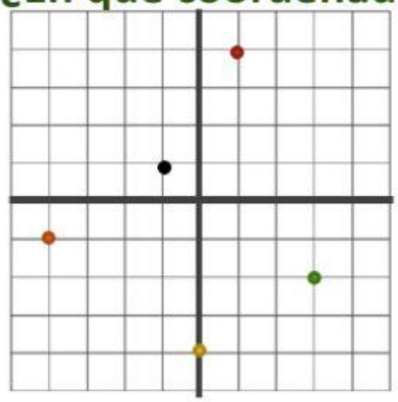

- (,)
- (,)
- (,)
- (,)
- (,)

LIVEWORKSHEETS