COORDENADES

Recordem que les coordenades **serveixen per localitzar punts en un pla.**

Per indicar la posició dels elements ho escrivim sempre dins d'un parèntesi.

El primer nombre indica les unitats que has de comptar cap a la dreta. El segon nombre indica les unitats que has de comptar cap amunt.

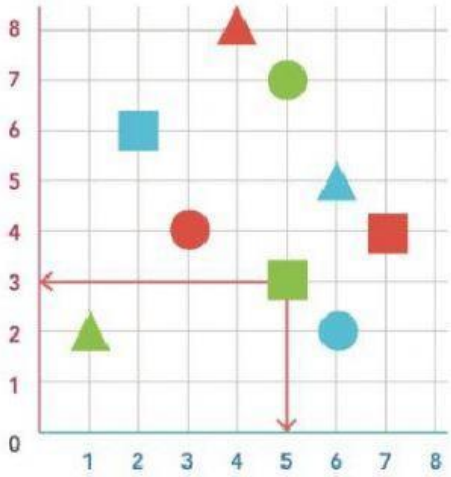

Així, diríem que el quadrat verd, està situat en el punt (5,3)

- **Tenint en compte la quadrícula anterior, escriu en cada parèntesi les coordenades de cada figura**.

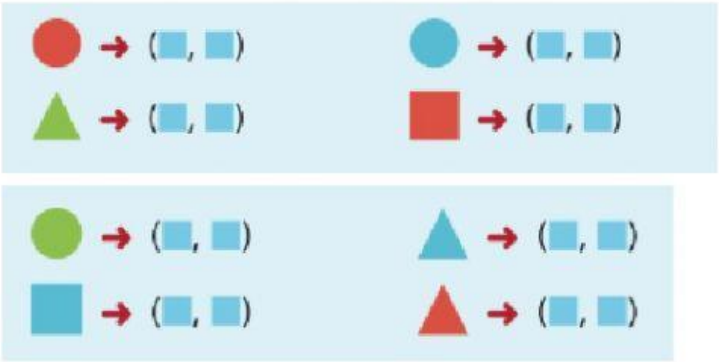

- **Fixa't en la quadrícula següent i escriu al quadern les coordenades dels punts per on ha de passar l'esquirol per arribar a la gla:**

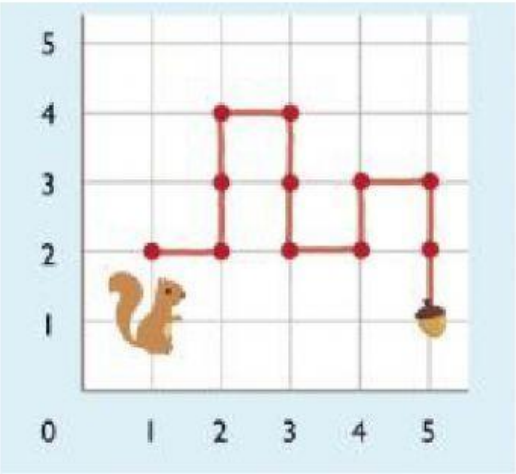

→ (1,2), (2, 2),(2, 3),

(,), (,), (,), (,),

(,),(,), (,),

(,), (,)