# LKPD
# Organ Peredaran Darah

Nama :.....

Kelas :.....

i

**Kompetensi Dasar**

3.6 Menganalisis sistem peredaran darah pada manusia dan memahami gangguan padasistem peredaran darah,serta upaya menjaga kesehatan sistem peredaran darah

4.6. Menyajikan hasil percobaan pengaruh aktivitas (jenis, intensitas, atau durasi) padafrekuensi denyut jantung

**Tujuan Pembelajaran:**

Siswa mampu Menganalisis struktur dan fungsi organ pada system peredaran darah dari berbagai sumber informasi

LIVEWORKSHEETS

A. PETUNJUK BELAJAR

1. Bacalah handout "Sistem Peredaran Darah" , Buku Biologi Kelas XI atau sumber lain yang relevan yang berkaitan dengan materi "Organ Peredaran Darah" untuk memperkuat konsep dan pemahaman anda.
2. Diskusikan dengan teman-teman sekelompokmu tentang soal-soal yang ada pada LKPD.
3. Jawablah pertanyaan pada LKPD dengan benar.
4. Tanyakan pada guru pembimbing bila ada hal-hal yang kurang jelas

1. Tuliskan Nama bagian-bagian jantung yang telah diberi nomor berikut!

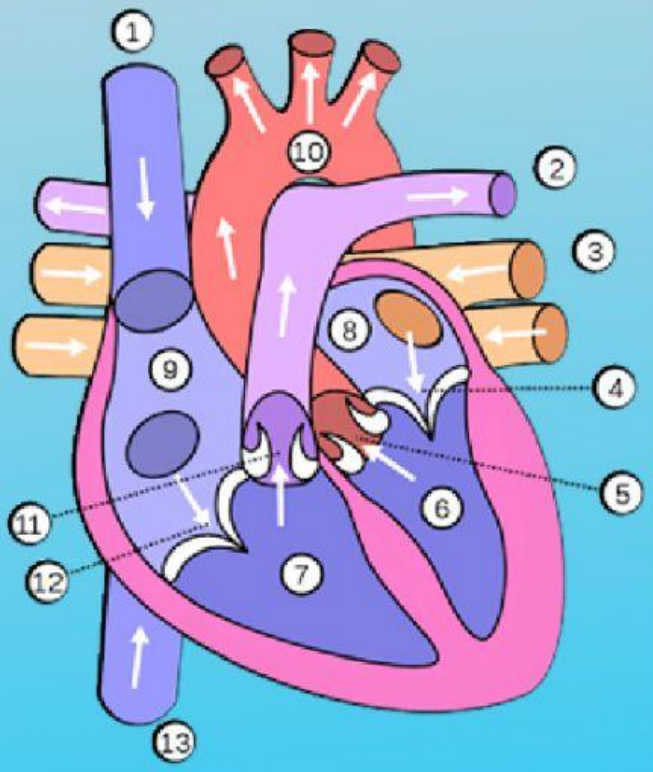


1.
2.
3.
4.
5.
6.
7.
8.
9.
10.
11.
12.
13.

LIVEWORKSHEETS

2. Tuliskan Nama dan Fungsi Organ berikut!

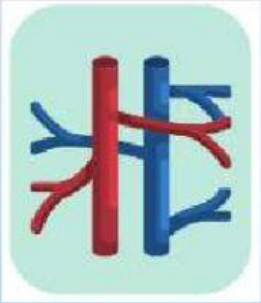

LIVEWORKSHEETS

3. Isilah tabel perbedaan pembuluh arteri (nadi) dan pembuluh balik (vena) berikut!

| No. | Pembeda | Nadi | Vena |
|---|---|---|---|
| 1. | Arah Aliran | | |
| 2. | Denyut | | |
| 3. | Dinding Pembuluh | | |
| 4. | Lokasi | | |
| 5. | Jika terluka | | |
| 6. | Warna Darah | | |

LIVEWORKSHEETS

**4. Berilah keterangan pada gambar berikut!**

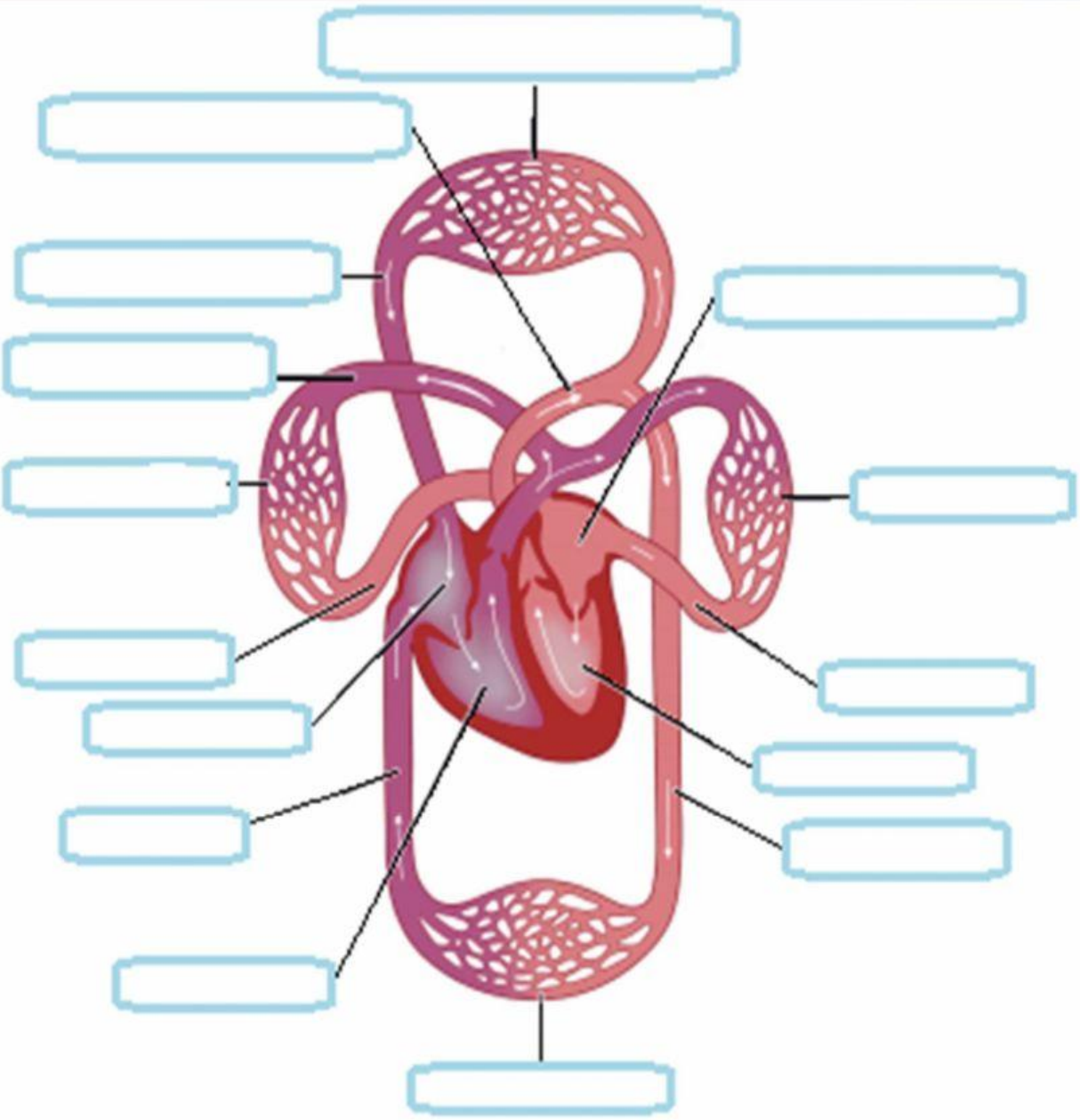

Sumber: Quipper Video

**Selamat Bekerja !**

LIVEWORKSHEETS