اسئلة تدريبية على الاختبار القصير (٢) [النموذج الأول] ج١

الاسم | الصف

﴿ قَالَ رَبِّ اشْرَحْ لِي صَدْرِي ۝ وَيَسِّرْ لِي أَمْرِي ﴾ طه:٢٨

رؤية عُمان 2040 | نتقدم بثقة Moving Forward with Confidence

١) اختر رمز الانعكاس الصحيح للمثلث حول خط المرآة



أ ب ج د

٢) يكلف ترميم منزل سعيد ما بين ٢٢٠٠ ريال عماني إلى ٣٠٠٠ ريال عماني .
اختر السعر الذي يمكن أن يكون تكلفة ترميم المنزل:

١٩٩٠ ٢١٢٥ ٢٣٤٢ ٣٢٢٣ ٣٣٣٣

٣) أكمل الجدول التالي بناءً على المجسم المقابل :

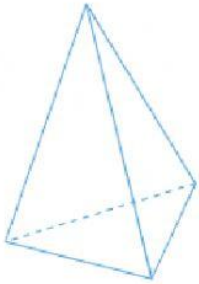

اسم الشكل	عدد الرؤوس	عدد الحواف	عدد الأوجه

٤) اكمل :

أ) ٣,٥ متر = سم

ب) ٣,٥ سم = ملم

٥) ما العدد الذي تظهره الرموز الهيروغليفية في الصورة:

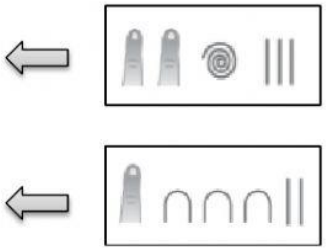

كل الامنيات لكم بالتوفيق

إعداد: أ.خلفان البريكي

LIVEWORKSHEETS