

مجموع قياس زوايا المثلث والأشكال الرباعية



٨

أوجد قياس الزاوية المجهولة :

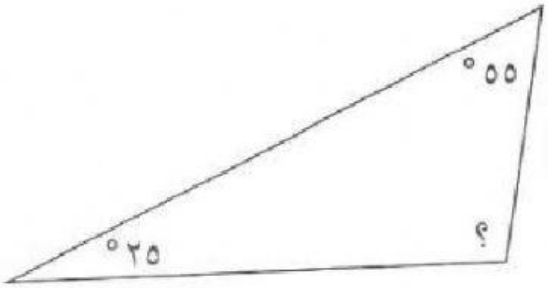

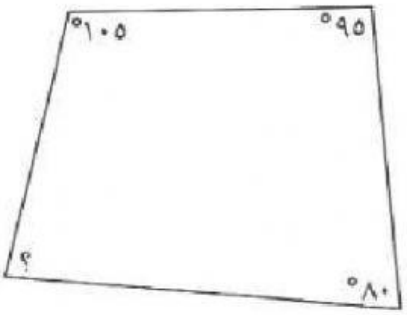

اختر الإجابة الصحيحة:

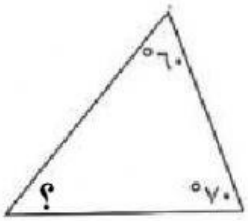

٢

قياس الزاوية المجهولة في الشكل المجاور:

أ) ٣٠° ب) ٨٠° جـ) ٥٠° د) ٤٠°



LIVEWORKSHEETS