QF1/WI7-32Rev.c

# مـدارس أكـاديمية الـرواد الـدوليـة

**International Pioneers Academy Schools**

## ورقة عمل

المدرسة: البنين المتوسطة / ثانوية البنات

الفصل الدراسي: الأول — العام الدراسي: 2022/ 2023م — ورقة عمل رقم (3)

الاسم:..... الصف:السادس التاريخ: 7 / 12 / 2022

المادة الدراسية: رياضيات الزمن: 45 دقيقة

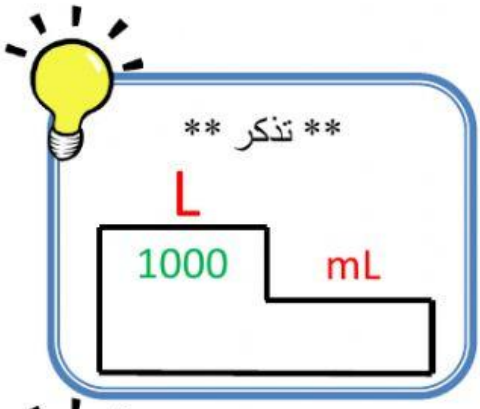


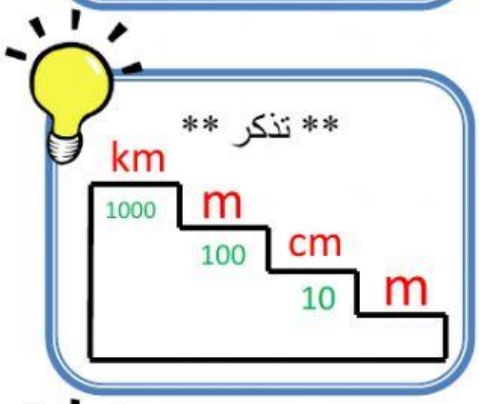


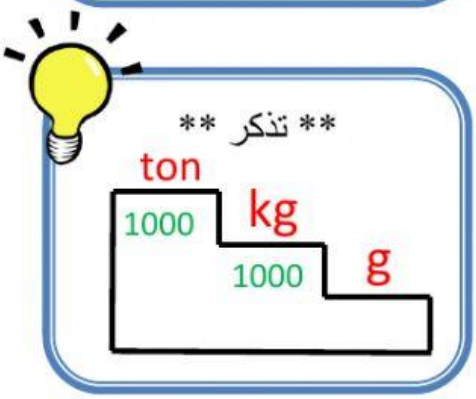


**** السؤال الأول **** أَمْلَأُ الْفَراغَ بِما هُوَ مُناسِبٌ في كُلٍّ مِمّا يَأْتي:

1. $4.5kg \div 2000g =$ ____
2. $1.2m \times 50cm =$ ____ $m^2$
3. $0.8m \times 1.25cm =$ ____ $cm^2$
4. $0.02L \div 2.5mL =$ ____
5. $0.056km \times 4.8m =$ ____ $m^2$
6. $8000g \div 2.5kg =$ ____

LIVEWORKSHEETS