Ficha de síntesis U10

1. Señala, en cada caso, el resultado de las multiplicaciones.

3×5	6×7	5×6
12 15	42 36	35 30
9×9	4×9	2×8
81 72	36 32	18 16

2. Escribe multiplicaciones para estos resultados.

36
- ☐ × ☐
- ☐ × ☐

16
- ☐ × ☐
- ☐ × ☐

18
- ☐ × ☐
- ☐ × ☐

40
- ☐ × ☐
- ☐ × ☐

3. ¿Cuánto pesan los objetos de cada balanza?

Pesa ☐ ☐



Pesa ☐ ☐

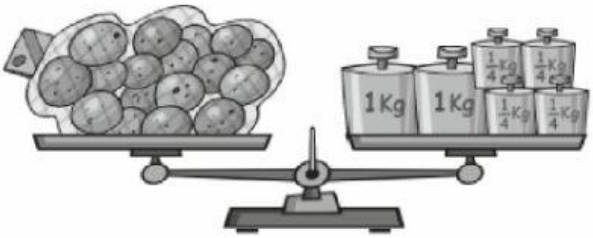

Pesa ☐ ☐



Pesa ☐ ☐

4. Completa.

2 kg = ☐ medios kilos

☐ kg = 4 cuartos de kilo

2 kg = ☐ cuartos de kilos

☐ kg = 2 medios kilos

5. Calcula.

$$\begin{array}{r} 734 \\ -396 \\ \hline \square \end{array} \qquad \begin{array}{r} 486 \\ +462 \\ \hline \square \end{array}$$

$$\begin{array}{r} 513 \\ -295 \\ \hline \square \end{array} \qquad \begin{array}{r} 367 \\ +344 \\ \hline \square \end{array}$$

6. En una floristería se vendieron 4 ramos de flores cada día de la semana, de lunes a domingo. ¿Cuántos ramos de flores se vendieron en toda la semana?

Operación _____

Solución: Se vendieron ☐ ramos de flores en toda la semana.