Nome: .....

Reta numérica

Exercícios

1 - Marque a alternativa correta sobre reta numérica.

a) É uma linha na horizontal onde são colocados os números;

b) A marcação dos traços é sempre em ordem numérica e não obedecem a um determinado intervalo;

c) Não é utilizada para marcar intervalos de tempo;

d) A marcação dos traços é sempre em ordem numérica e obedecem a um determinado intervalo de tempo.

2 - Preencha o espaço em branco desvendando a seguinte situação: qual é o intervalo dado de um número a outro na reta abaixo (número + intervalo) ?

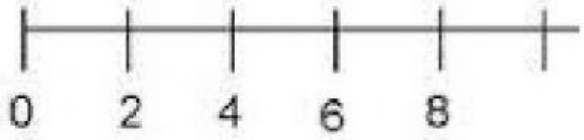

R- _____

LIVEWORKSHEETS

3 - Ligue as retas aos intervalos de um número ao outro.

a)

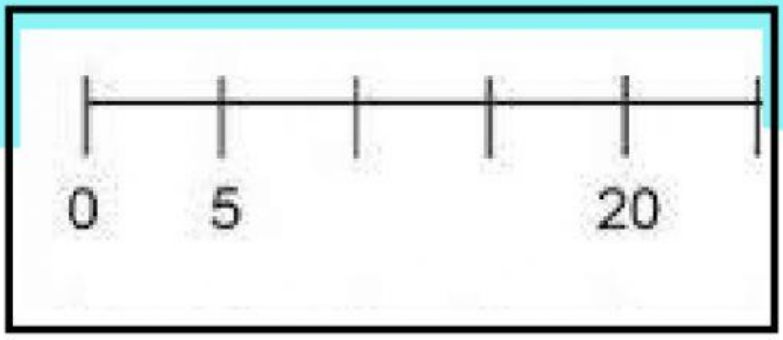

5 8 10

b)

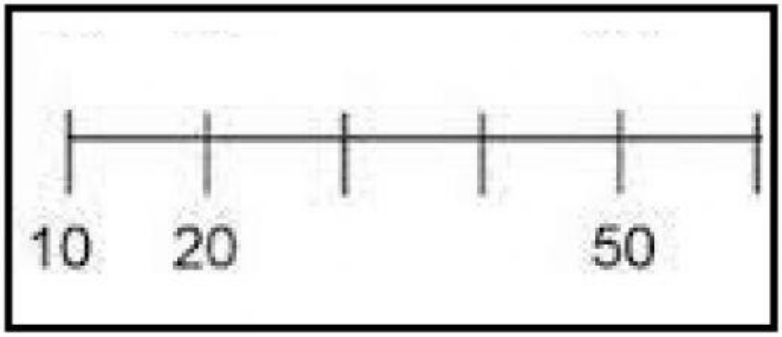

5 8 10

LIVEWORKSHEETS