Problemas

5 Este terreno se ha vendido a 15 € el m^2.

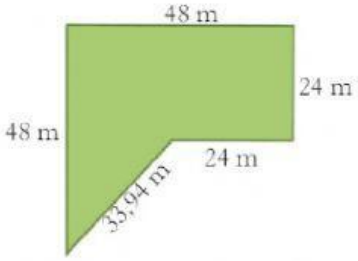

a)		Euros
b)		m

a) ¿Cuál es su precio total?

b) ¿Cuántos metros de valla serán necesarios para rodearlo?

6 ¿Qué superficie ocupa la pista de atletismo siguiente?

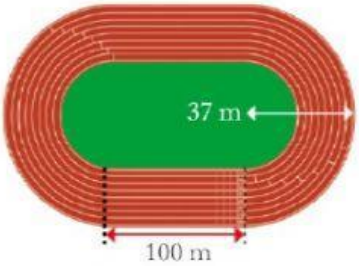

Área =		m^2

7 Calcula la superficie de esta parcela. La mitad se planta de tomates, una cuarta parte de lechugas y el resto de alcachofas. ¿Qué superficie ocupa cada cultivo?

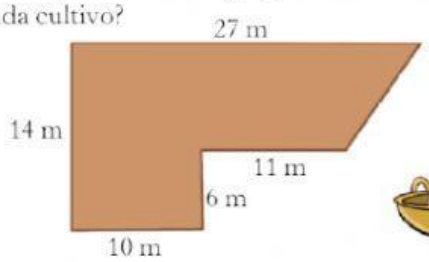
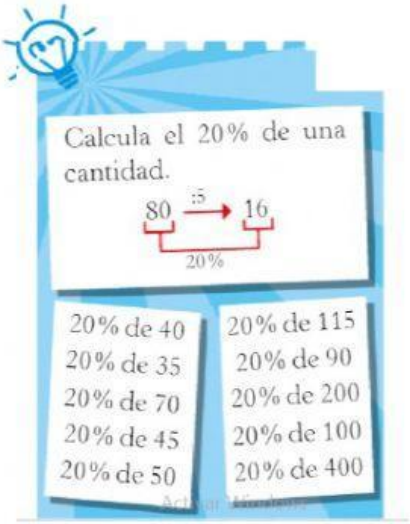
A total		m^2
A tomates		m^2
A lechugas		m^2
A alcafofas		m^2